FIZ | LAB

015

ipek

BLOKNOT

36 YAPRAK A4

İpeda

KARELİ

DİPAŞ A.Ş. ÜRÜNÜDÜR

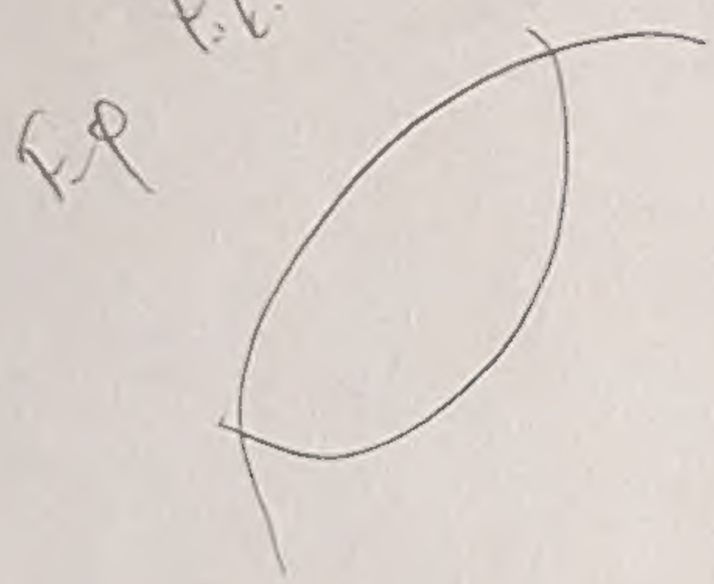
F.P
F.L
S
Surface

P-1

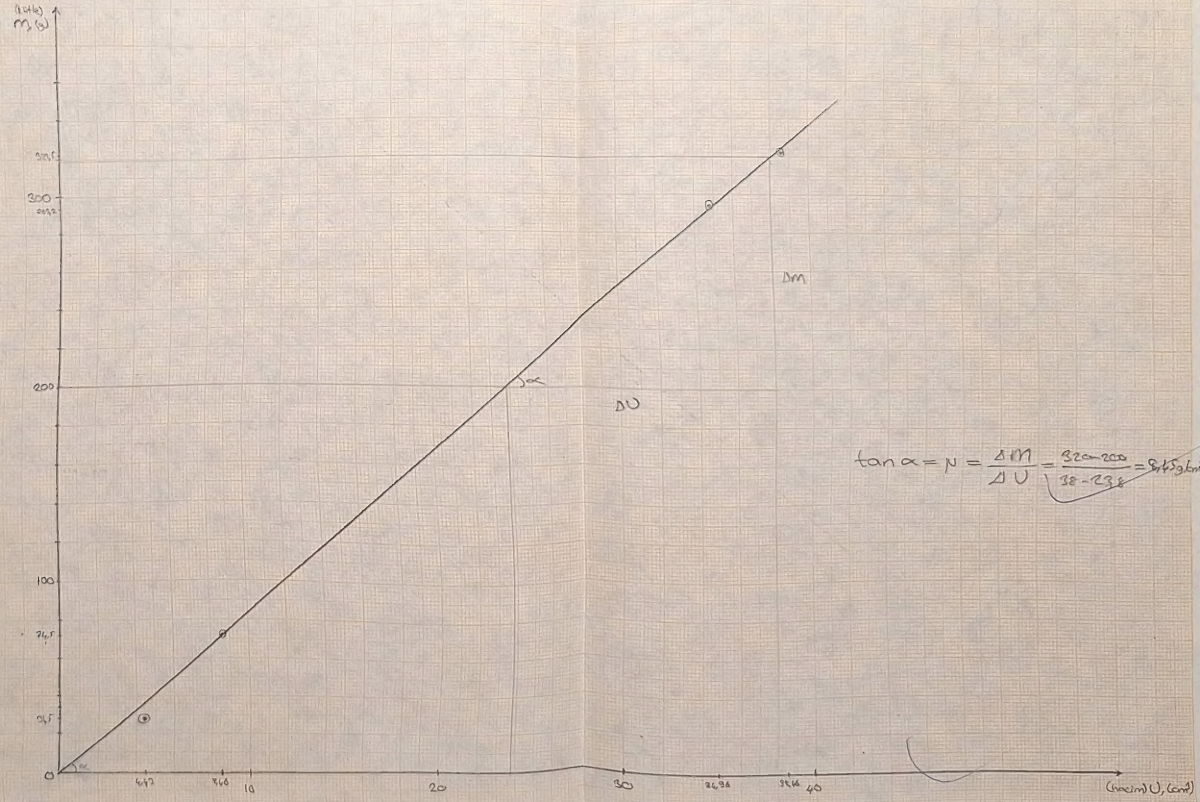
(Lita) m, (g)
300
200
100
74,5
34,5
0
4,7
8,6
10
20
30
36,98
39,6
40
(tracim) U, (cm)
Δm
ΔU
tan α = μ = Δm/ΔU = 32-200/38-23,8 = 8,45 g/cm

Vernyeli kompasın üst kısmıyla bir halkanın iç çapı, alt kısmıyla dış çapı ve aralarındaki uzantıyla herhangi bir derinlik ölçülebilir. Kompasın aynar kısmının üstündeki vernüye bölünmüş 9 mm olup 10'a bölünmüştür.

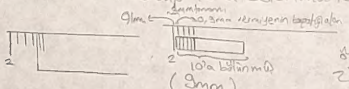


Vernüyi şekilde 2 cm ölçülmüş vernüye çizgisi 2'yi geçmiştir. Vernüyenin ana ölçekle çakışan çizgisi 5 çizgisidir.

2,0
0,5
0,1mm x 5 = 0,5
2,05 okunacak değer olur.

Mikrometre

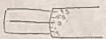


Doğrudurum (düler kpalıyken 0 referans çizgisiyle aynı durumda olmalıdır. Çizginin altında kalırsa kalan kısmı ölçü değerinden çıkarılır geçerse eklenir.

Ayrıca dönen kısmın her 1 tam dönüşü ayrı bölümde 1 mm ilerlik gelir. Bu nedenle kuvvet dikkat etmeli ana kısımda yarıyı geçtiyse sonuca 0,5 cm eklenmelidir.

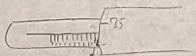


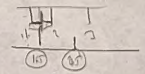

DENEYİN ADI : ÖLÇME

DENEYİN AMACI: Uzunluk, kütle ve hacim metrik birimlerini öğrenmek. Cetvel, verniyeli kompas, mikrometre ve terazi kullanarak uzunluk ve kütle ölçmeyi öğrenmek.

ÖLÇME YÖNTEMİ: Veri tablolarında yer alan ölçümler metrik cetvel, verniyeli kompas mikrometre ve miligram duyarlı terazi ile alınmıştır. Ölçmeler ehsan anlamlı rakama kadar yapılmamıştır. Bunun nedeni işlemleri tor-maşalardan kurtarmaktır*. Ölçümler m ile daha sonra ise verniyeli kompas (d için) ve mikrometre (l için) yeniden yapılmıştır.

Ölçmelerde; cetvelde 0,1 cm kadar kesindir.
mikrometrede 0,001cm'ye kadar kesindir.
verniyeli kompasta 0,01cm'e kadar sonuç kesindir.

Terazide ise terazinin kolları kullanılmadan önce dengelenmiş ayrıca arkasında bulunan su kabarcığı ayarlarla ayna yorak ortalanarak tabana dik olarak durması sağlanmıştır. Ölçümde ağırlıklar konulurken terazi otoctulmuş ağırlık terazi taşıdırılmış durumdayken atılmamıştır. Ayrıca her ölçüden aynı g kuvveti etkidiğinden ağırlık değil kütleler bulunmuştur.

* Bununla beraber bağıl ve mutlak yanılgılar hesaplanmıştır.

VERİLER:

| Pirinç Silindir | Cetvel l(cm) | Cetvel d(cm) | Verniyeli kompas d(cm) | Kompas ve mikrometre d(cm) | Suyun Yükselmesi (V cm³) | Terazi m(g) |
|---|---|---|---|---|---|---|
| A | 2,9cm | 3,4cm | 0,322 cm | 3,10cm | * | 74,5g |
| B | 2,5cm | 4,1cm | 2,525 cm | 4,20cm. | * | 293,2 g |
| C | 3,9cm | 9,0cm | 4,00 cm | 3,50 cm. | * | 302,5 g. |
| D | 3,6cm | 1,2cm | 3,64 cm | 1,26cm | 4cm³ | 34,5 g. |

* İncelenen silindirler ölçü kaplarına sığmadığından hacimleri ölçülemedi.

VERİLERİN ÇÖZÜMLENMESİ: Her silindirin hacmini verilere dayanarak $V=\frac{1}{4}\pi L d^2$'den hesapladık. Ayrıca yine özkütlesini $\mu = m/V$'den bulundu.

| Silindir | I HESAPLAMA: Cetvelle (V cm³) | II HESAPLAMA: V. kompas ve II. ile (V cm³) | III Suyun Yükselmesi (V cm³) | Terazi m(g) | I μ g/cm³ | II μ g/cm³ | III μ g/cm³ |
|---|---|---|---|---|---|---|---|
| A | 8,2 cm³ | 8,46 cm³ | * | 74,5 g | 9,1 | 8,8 | * |
| B | 33,0 cm³ | 34,96 cm³ | * | 293,2 g | 8,9 | 8,4 | * |
| C | 37,5 cm³ | 38,46 cm³ | * | 302,5 g | 8,6 | 8,4 | * |
| D | 4,1 cm³ | 4,43 cm³ | 4 cm³ | 34,5 g | 8,4 | 7,8 | 8,6 |

* İncelenen silindirler ölçü kaplarına sığmadığından hacimleri ölçülemedi. Bu yüzden buna bağlı μ bulunamadı

Yukarıdaki çizelgeden m(g) kütlesinin verniyeli kompas ve mikrometre ile alınan sonuç V(cm³)'e bölümünden meydana gelen özkütlelerin ortalamasını gerçeğini aldık.

μ'nün ortalama değeri; $\mu_{ort} = \frac{8,8\,g/cm^3 + 8,4\,g/cm^3 + 8,4\,g/cm^3 + 7,8\,g/cm^3}{4}$

$\mu_{ort} = 8,35\ g/cm^3$

(Yaklaşık olarak 8,5 g/cm³)

I) Kütleleri V hacimlerine bağlayan m=f(V) grafiğini çizdik ve veri noktalarından geçen doğrunun eğiminden μ'yü bulduk.

$$\tan\alpha = \mu = \frac{\Delta m}{\Delta V} = \frac{320-200}{38-23,8} = \frac{120}{14,2} = 8,45\ g/cm^3$$

BAĞIL HATA

$$\frac{\Delta V}{V} = 2\frac{\Delta d}{d} + \frac{\Delta L}{L} \rightarrow \frac{\Delta V}{V} = 2\frac{0,01cm}{3,40cm} + \frac{0,001cm}{0,932cm} \rightarrow \frac{\Delta V}{V} = 0,059 + 0,001 = 0,007$$

ise %0,07'lik bağıl hata var

Mutlak hata $\frac{\Delta V}{V} = 0,007 \rightarrow \Delta V = V \cdot 0,007$

$\Delta V = 8,46 \cdot 0,007 = 0,059 \rightarrow$ %5,9'luk mutlak hata

SONUÇ: Verniyeli kompas ve mikrometreyle bulunan hacim, ölçekli kapta bulduğumuz hacme göre daha kesindir. Bu yüzden ölçekli kap sadece hacmi matematiksel olarak hesaplayamayacak ya da zor hesaplanacak cisimlerin hacminin bulunmasında kullanılmalı. Küp, silindir, prizma gibi hacmi belli cisimler uzunluk metrik araçlarıyla ölçülüp hacmi bulunmalıdır. Ayrıca küçük silindirler ve diğer cisimlerin ölçekli kapta hassas olarak hacmi bulunmayabilir. Bunun nedeni bu cisimlerin koptukları gerilmeye tutulmaları nedeniyle kapta oturabilir bir su seviyesi yükseltememeleridir.

Ölçülerin bulunması için kullandığımız yöntemlerden grafik tam olarak tüm noktalardan geçmediğinden tam değeri vermemekle birlikte grafik değerleri kesine yakın olduğundan eğim yakın değeri verir. Diğer yöntemde ise kullandığımız sonuçlara göre kesin bir değer bir ama sonuçlar kesine yakın olmadığından kesin değildir.

Yorum:

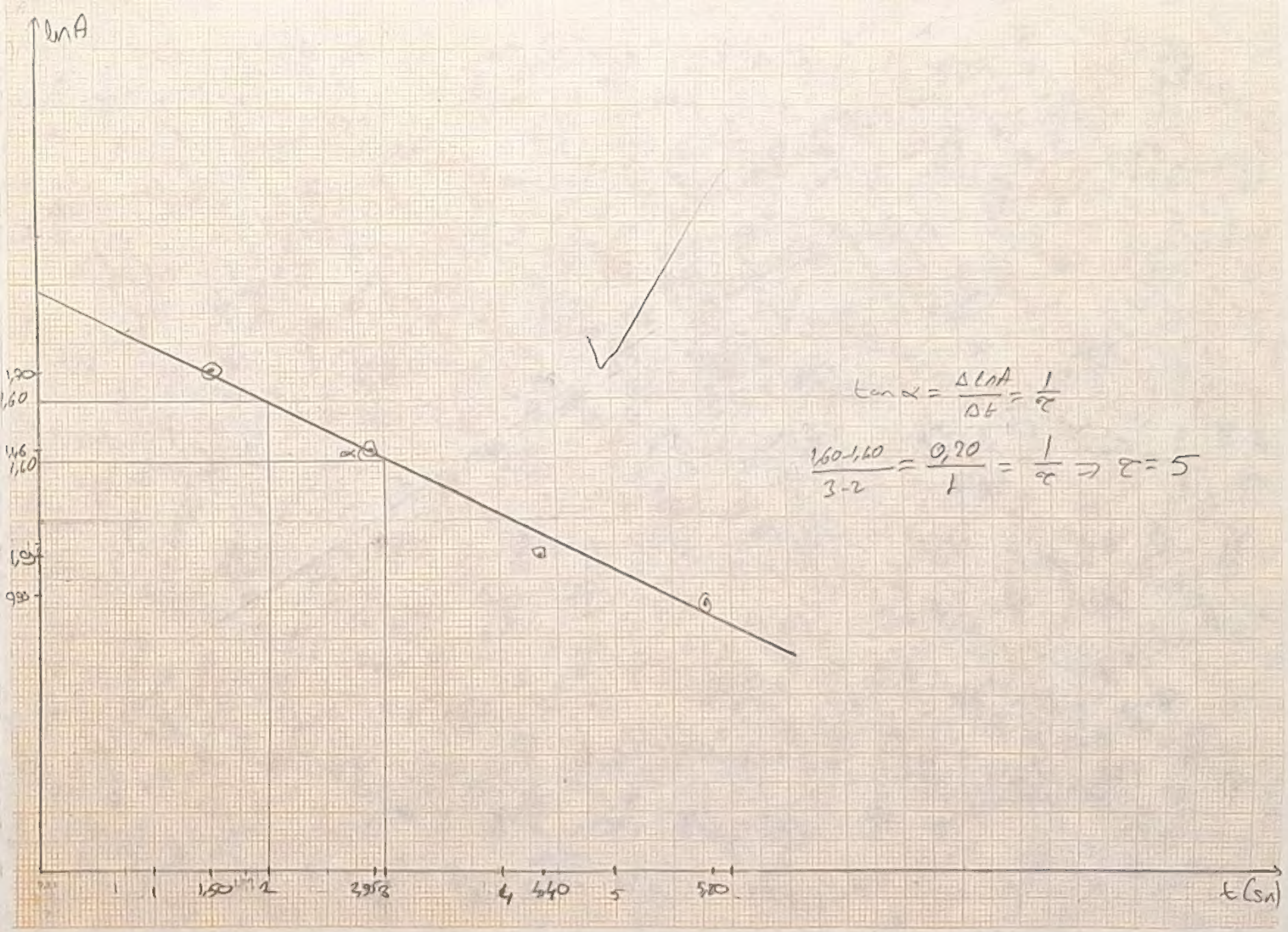


$$\tan\alpha = \frac{\Delta \ln A}{\Delta t} = \frac{1}{\tau}$$

$$\frac{1,60-1,40}{3-2} = \frac{0,20}{1} = \frac{1}{\tau} \Rightarrow \tau = 5$$

DENEY : SONUMLU [illegible] HARMONİK HAREKET VE DİRENÇLİ HAREKET

DENEYİN AMACI: Sönümlü harmonik ve zorlanmış sönümlü harmonik hareketin incelenmesi ve iki boyutlu harmonik hareketler girişiminin incelenmesi.

VERİLER

Resim I: Durulma zamanının ve sönüm sabitinin bulunması

Sönümlü harmonik hareketle ilgili grafiğinden alınan genlikler

| En A | A(cm) | t(s) |
|---|---|---|
| 1,70 | 5,50 | 1,50 |
| 1,46 | 4,32 | 3,95 |
| 1,09 | 2,99 | 4,4 |
| 0,92 | 2,54 | 5,8 |

[illegible] değerlerini grafikten [illegible] yöntemdeki $A_0, A_1, A_2 \ldots$ genliklerini aldık ve bu [illegible] doğal [illegible] aldık ve $\ln A$'nın zamana karşı grafiğini çizdik. Daha sonra ortaya çıkan doğrunun eğiminin $-b/2m$ [illegible] grafiğyle durulma zamanı [illegible] hesapladık

$$\frac{1}{5,80} = \frac{b}{2 \cdot 138} \Rightarrow b = \frac{2 \cdot 138}{5,80} = 47,5 \text{ gr/s} \quad (\text{ort})$$

$$\frac{1}{5,00} = \frac{b}{2 \cdot 138} \Rightarrow b = \frac{2 \cdot 138}{5,00} = 55,2 \text{ g/s}$$

[illegible] grafiğinden [illegible] $\tau(s)$ [illegible]

| [illegible] | [illegible] | $\tau(s)$ | $b(g/s)$ |
|---|---|---|---|
| [illegible] | [illegible] g/s. | 5,80 | 47,5 gr/s |

Resim II.: Harmonik hareketin grafiği

Değişik ağırlıklar için

| E | A | B / H | D (*) |
|---|---|---|---|
| x | x | x | x |

*Akrometresi basmadı

[illegible] ölçümler [illegible] yapılamadı. Fakat üstün hareketlerinden diğer elips ve [illegible] bağıntılar rahatlıkla gerçekleştirebiliriz.

SONUÇ:

Bu deneyde sönümlü harmonik hareketi inceledik. Grafikten yararlanılarak elde edilen ferdi bilgilerden ard arda gelen [illegible] sabit bir [illegible] ve sistemin [illegible] bağlıdır. Bununla beraber sonuç [illegible] değerlerle çıkması bu taşıtlarda deneyin en [illegible] yapılmıştır.

II. deneyde ise yalnızca yatay konumda yaylara sahip [illegible] ve ark kromometresi [illegible] gerektiği gibi çalışmamış [illegible]

18/10/98

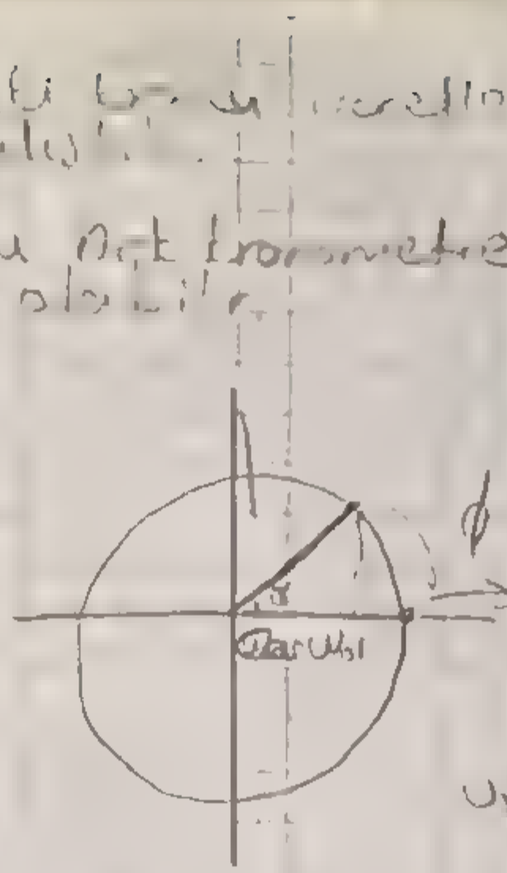

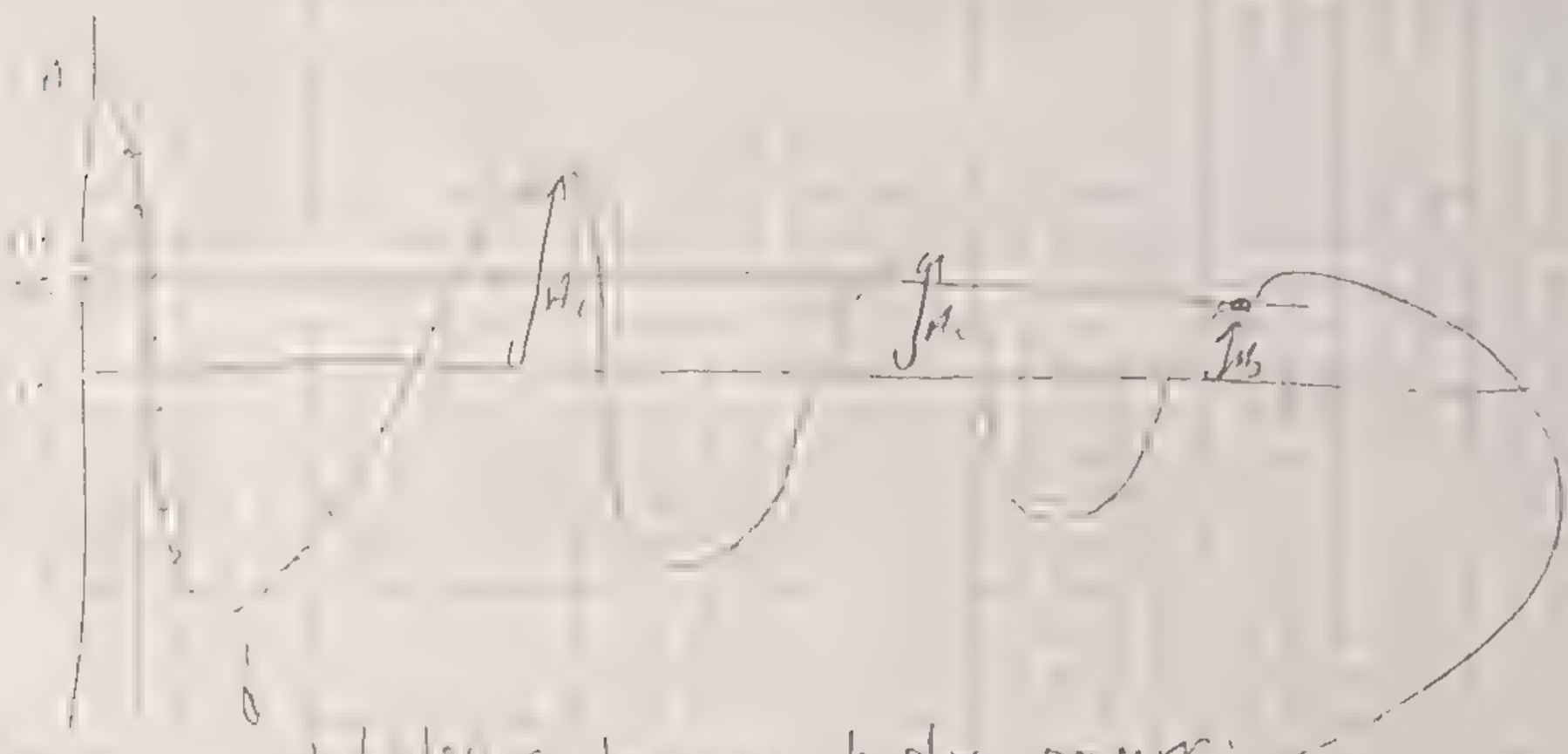

...NMAÇ: Farklı düzlemde salınan basit sarkaç yardımıyla yer çekimi ivmesi g'yi ölçmek.

MALZEMELER: Hava mesnetli fark kronometresi, Cıcklar, Ağırlıklar, Tabaka kağıt, Kurşun kağıdı

...ORAMSAL BİLGİ: Uzayan ve bükülebilir ipe asılan maddesel bir noktadan ibaret sisteme basit sarkaç adını veriyoruz. Eğer bu sarkacı denge konumundan küçük bir θ açısı kadar ayırıp salınıma bırakırsak, basit harmonik (dönüşlü) hareket yapar. Bu hareketin bir periyot (bir tam devri) T periyodu gösterecek olursak;

$T = 2\pi\sqrt{L/g}$ olur. Burada $\pi$: sabit olup 3,14 tür
L: sarkacın uzunluğu ve g: bulunulan ortamın ivmesidir. Dünyamız için yaklaşık 9,8 m/sn² kabul edilir.

...ava mesnetli salınım yapan bir düzlük horizontal ile $\phi$ hava mesnetinin eğim açısı ve düzlük üstüne bırakılan cisim ve $\theta$ denge konumundan ... 4 kuvvet etkiler
Bu 4 kuvvet: $F_1 = mg\sin\phi$ (ağırlık)

$F_2 = mg\sin\phi\sin\theta$

$N = mg\sin\phi\cos\theta$

$T = -(mg\sin\phi\cos\theta) = -N$'dir. Bunları bir sebille ifade edersek;

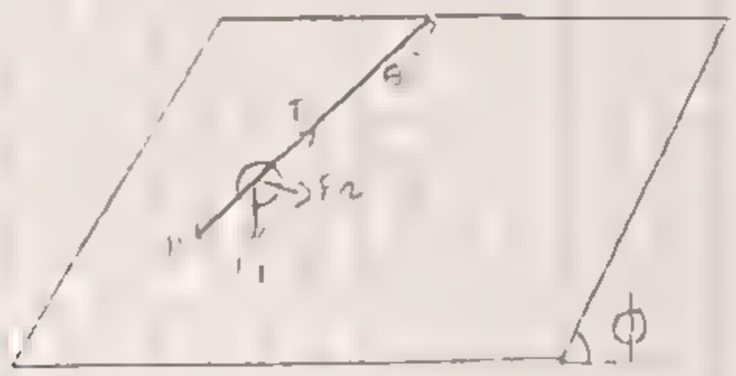


Sarkaç denge konumundayken $\theta = 0$ olacağından; $F_2 = 0$ olur ve $F_1 = N$ olur

...ğal olmayan salınım sarkacın periyodu için;

$mL\left(\frac{d^2\theta}{dt^2}\right) = -mg\sin\phi\sin\theta$ olur. Buradan

$\frac{d^2\theta}{dt^2} = -\left(\frac{g\sin\phi}{L}\right)\sin\theta$ olur. Burada $\frac{d^2\theta}{dt^2}$ ani açısal hız ... küçük değerlerde $\sin\theta \approx \theta$ dersek;

$\frac{d^2\theta}{dt^2} = -\frac{(g\sin\phi)}{(\quad)}\cdot\theta$ yazabiliriz. Bu denklemin çözümü,

$T = 2\pi\sqrt{\frac{L}{g(\sin\phi)}}$ olarak bulunur. $\sin\phi$'nin 1 yani $\phi = 90$ olması durumunda $T = 2\pi\sqrt{\frac{L}{g}}$ olur.

DENEYİN YAPILIŞI: Deney sistemini hazırladıktan sonra sarkacın değişken boyutlu ipine farklı kütleler takıp, kütlenin değiştirilerek periyodun değişip değişmediğini bulduk. Hazırlanan sistem düzeneği şekildeki gibidir.



BASİT SARKAÇ (MATEMATİK SARKAÇ) HAREKETİ

Uzunluğu hafif bir ipe asılmış bir noktada gibi alınabilen [illegible] kütlesinden [illegible] konumundan biraz ayırırsak bir yay üzerinde gidip gelir. Sarkaca etki eden kuvvetler sürtünmeden kütlesine etkiyen kuvvet, ağırlık kuvveti ve ipteki tepkime kuvvetidir. Yörüngeye dik olan doğrultuda etkiyen kuvvetlerin bileşkesi, kütlenin çember-sel bir yörüngede gerekli olan merkezcil kuvveti oluşturur.

Yörüngeye teğet olan mgsinθ kuvveti ise, m kütlesini denge konumuna döndürmeye çalışan geri çağırıcı bir kuvvettir. Buna göre, bu kuvvetin etkisinde m kütlesi yalın bir titreşim devinimi yapacaktır.

Newton'un 2. yasasına göre ivmelenen hareketine dönüşü artandır ve kuvvet yönündedir, kütlesi değişmeyen kuvvetle değişen bir cismin hareketine bir değişiklik yaptığı için

$$-mg\sin\theta = m\frac{d^2x}{dt^2}$$ yada $x = \theta l$'den yararlanarak

$$-mg\sin\theta = ml\frac{d^2\theta}{dt^2}$$ ve

$$\frac{d^2\theta}{dt^2} + \frac{g}{l}\cdot\sin\theta = 0$$ elde edilir

Bu basit harekete yalın titreşimin devinim denklemidir. Ancak yer çekimine bağımlıdır. $\sin\theta$'ya bağımlıdır. Eğer $\theta$ küçükse, sin yerine $\theta$ değeri alınabilir.

$$\frac{d^2\theta}{dt^2} + \frac{g}{l}\cdot\theta = 0$$ olur. Bu devinimin periyodu $\left(T = \frac{2\pi}{\omega} = 2\pi\sqrt{\frac{m}{k}}\right)$

$\omega = \sqrt{\frac{g}{l}}$ ve $T = 2\pi\sqrt{\frac{l}{g}}$ olur.

Sarkaç büyük değilse o zaman $T = 2\pi\sqrt{\frac{g}{l}}\left(1 + \frac{1}{2^2}\sin^2\frac{\theta}{2} + \frac{1}{2^2}\cdot\frac{3^2}{4^2}\right.$

[illegible] sabitinde bir eşitlik bulunur. Burada $\theta$, açısal yer değiştirme $\theta < 15°$ için iki T formülü arasındaki oyuncu [illegible] $\theta$ küçüldükçe bu oyuncu daha da küçülür. [illegible] $T = 2\pi\sqrt{\frac{l}{g}}$ [illegible] kullanılabilir.

$\tan\alpha = m = \frac{(17,5-8,5)}{(1,1)} = 64,81$

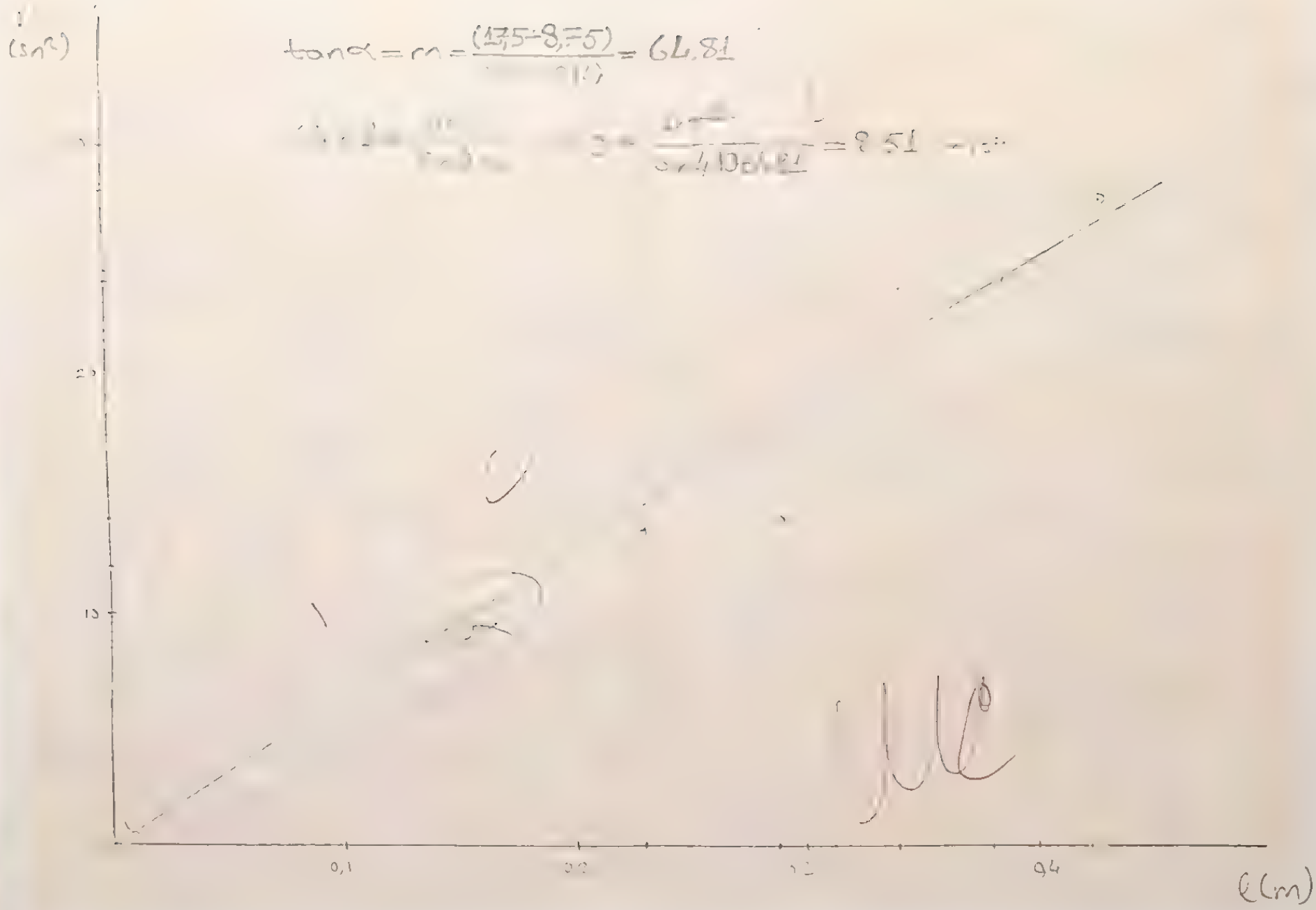

ŞEKİLLER

A) $\phi$, $\theta$ ve m sabit olmak üzere,

| T(sn) | L(m) | $T^2$ ($sn^2$) |
|---|---|---|
| 3,8 sn | 0,280m | $14,44\ sn^2$ |
| 5,3 sn | 0,420m | $28,09\ sn^2$ |
| 4,9 sn | 0,360m | $24,01\ sn^2$ |
| 4,95 sn | 0,375m | $24,50\ sn^2$ |
| 3,50 sn | 0,225m | $12,25\ sn^2$ |

B) L, $\phi$, $\theta$ sabit olmak üzere

| m (g) | T (sn) |
|---|---|
| * | * |
| * | * |

* Yapılmadı

C) L, $\phi$ ve m sabit olmak üzere

| A°D) | T (s) |
|---|---|
| * | * |
| * | * |
| * | * |
| * | * |

* Yapılmadı

VERİLERİN GÖRÜNTÜLENMESİ

A) $\pi^2 = 9,8596$ olarak alındı.

$\phi = 4,10°$

$\sin\phi = \sin 4,10° = 0,071497444$.

$$T^2 = \left(\frac{4\pi^2}{g \sin\phi}\right) L \longrightarrow m = \frac{4\pi^2}{\sin 4,10 g} \Rightarrow g = \frac{4 \cdot (3,14)^2}{64,8 \cdot \sin 4,10} = 8,51\ m/s^2$$

B) Elde edilmiş T değerleri (m değişirken ve L, $\phi$, $\theta$ sabitken) sabit kaldığı için m (kütle) değişiminin T'ye etkisi olmadığı görülmüştür.

C) Bulduğumuz değerlerden $\theta$'nın küçük değerleri için T'nin değişmediği büyük $\theta$ açılarında ise T'nin buna bağlı olarak değiştiği görülmüştür.

SONUÇ: Deneyde, sonuç olarak yerçekimi ivmesini 8,51 m/s² olarak hesapladık. Bu gerçek değeri 9,8 m/s² ye çok yakın bir değerdi. Sayılarda 1,3 lük bir farklılık ayrıntılara verilerden için ufak bir hata (ihmal) artıkça periyodun büyüdüğü gözlendiği için bu farklılığın oluştuğunu düşünüyoruz.

Deneyin ilk 30 dk'sından ark çalışmadığından ilk bölümden 30 dk. sonra bir kaynak alınıp ölçümler yapılarak T'nin değeri üzerinde durulmuştur. Bulduğumuz değerlerle ne olacağını ise yorum kısmında açıkladık.

YORUM: Bir basit sarkaçta T(s)'de m kütlenin değerinin periyoda hiç bir etkisi yoktur. $\theta$ açısının küçük değerlerinde açının sinüsü yerine değerler konarak çözüm yapılabilir çünkü $\theta < 15$ için $T = 2\pi\sqrt{\frac{L}{g}}$ ile

$T = 2\pi\sqrt{\frac{L}{g}}\left(1 + \frac{1}{2^2}\sin^2\frac{\theta}{2} + \frac{1}{2^2}\cdot\frac{3^2}{4^2}\sin^4\frac{\theta}{2} + \right)$ oranındaki ayrım %5'den küçüktür. Yani ihmal edilebilir. (Açının büyümesi periyodu artmasına yol açar. $\theta > 15°$ iken $\theta < 15°$ iken ise bağıntıya ihmal edilebilir bağıntılar diyebiliriz.) Eğer bu sarkaç sürtünmeli bir düzlemde ise hareket zıt yönlü bir kuvvet oluşturacağından periyot (T) artacak buna bağlı olarak $T^2$ daha da artacağından

$T^2 = \frac{4\pi^2}{g\sin\beta}L$ 'den $g = \frac{4\pi^2}{a\sin\beta}$ g daha büyük çıkar. Yani sürtünme periyodu arttırır buna bağlı olarak bulunacak yerçekimi ivmesi de artmış olur. Genel olarak

Deneydeki hatalar (ihmal edilse) sürtünmeden gelmektedir.

nilgisinden ve deneyde kullanılan sistemin kütlesinden oluşmuştur.

1.11.1990

Sorular
Hata analizi

[illegible] bağıl yanlış = $\frac{18,51 - 9,81}{98} = 0,13 \Rightarrow$ %13 bağıl yanlış.

[illegible]

[illegible] $T = 2\pi\sqrt{\frac{l}{g}}$ ve $T = 2\pi\sqrt{\frac{l}{g\sin\theta}}$ bağıntılarının eşit alınması.

[illegible] $\sqrt{\frac{l}{g}} = \sqrt{\frac{l}{g\sin\theta}}$ her iki tarafın karesini alırsak

[illegible] $4\pi^2\frac{l}{g} = 4\pi^2\frac{l}{g\sin\theta}$ eşitliği

[illegible] Buradan $1 = \frac{1}{\sin\theta} \Rightarrow \sin\theta = 1$ sonucunu buluruz. Yani

$\theta = 90°$, $\theta = 90°$ olması durumunda 2 eşitlik birbirine eşittir

[illegible] yarım kütlümüzde ve değişmiz ucuda geçerli

[illegible] Hesaplarımızda hatalara katkıyorum. Hesaplarda küçük açılar

[illegible] yerine 0 değerini aldığımızda bu yönde etkiler.

[illegible] Deney düzeneğinde (Dikkatsizce kullanıldığında) küçük enlemlerin

[illegible] alınması gerekirken büyük alınabilmesi. Buradan

$T = 2\pi\sqrt{\frac{l+\frac{r}{2}}{g}}$ olur. (Çekülün yarıçapının

[illegible] alınmaması) hatasına katkıda bulunur.

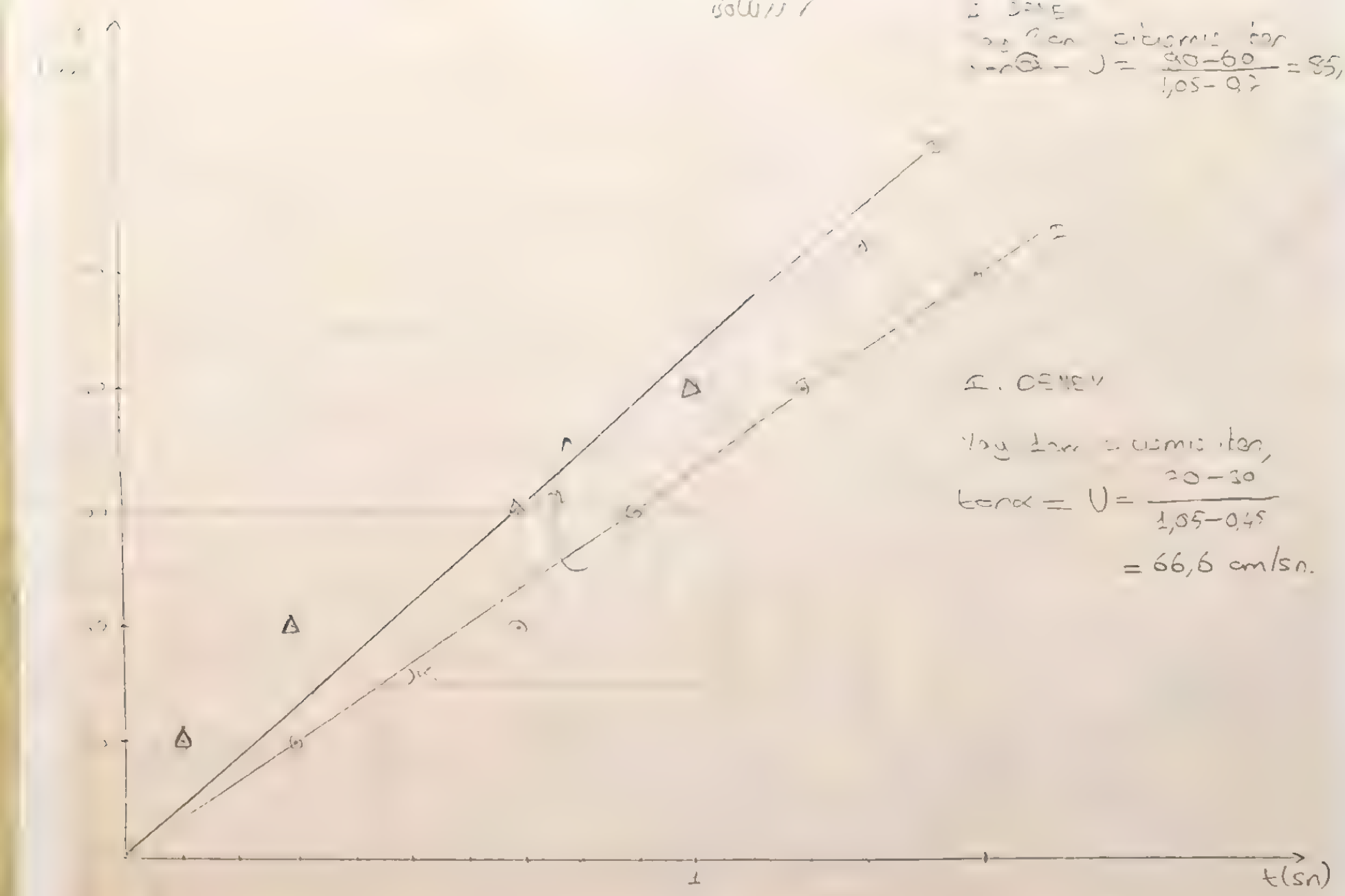
t(sn)


4
40

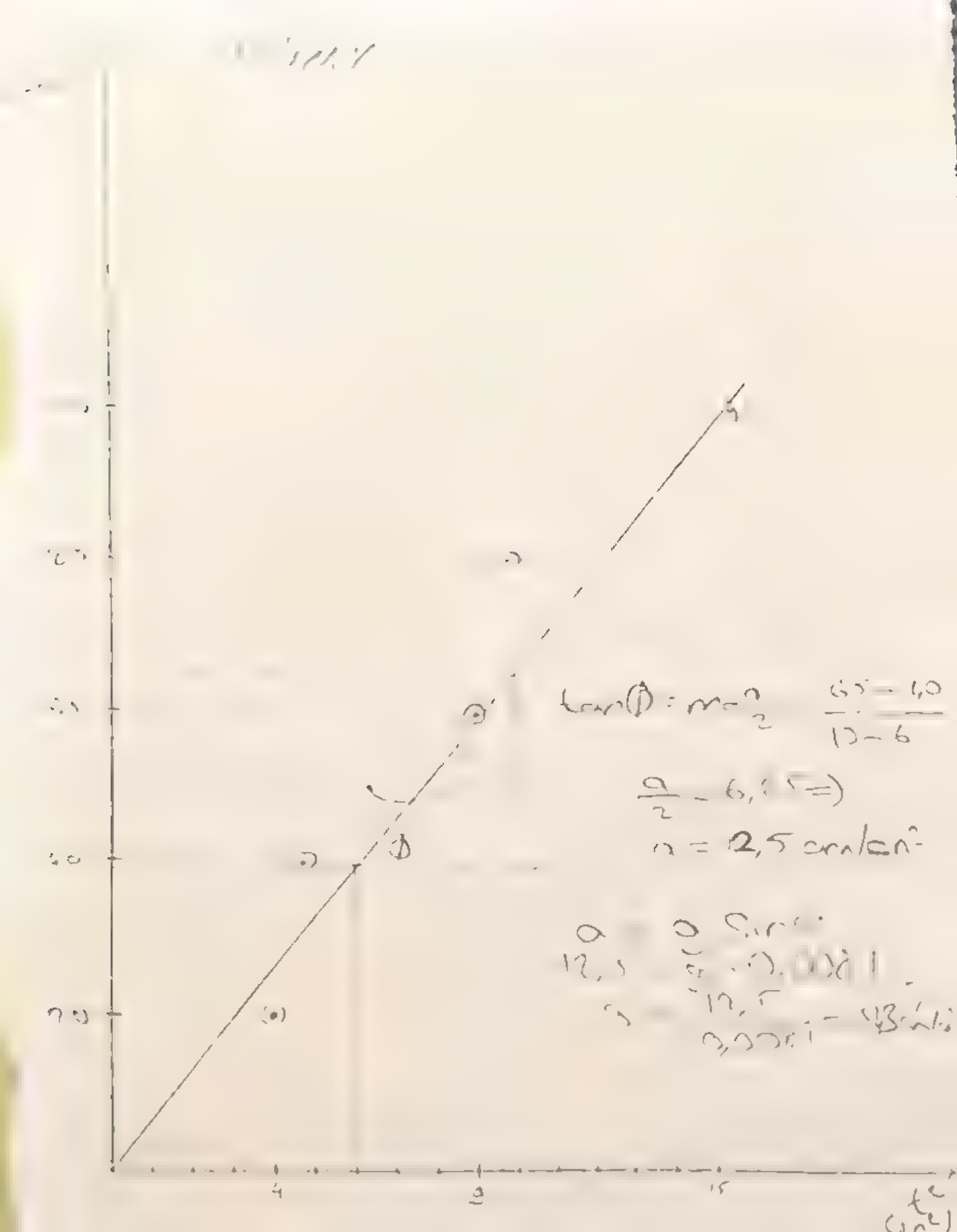
4
9
15
$t^2$
$(10^{-2}\,s^2)$
$\frac{0,5}{12-6}$
$\frac{a}{2} = 6,1$
$a = 2,5\ cm/s^2$

DENEYİN ADI: Hız ve İvme

AMACI: Hız ve ivme kavramlarının anlaşılmasına deneysel olarak katkıda bulunmak ve bilgilerini pekiştirmek ve öğrenmektir

MALZEMELER: Dış ray, bilyalar, kronometre, ağırlığı belirlenmiş diskler, ip ve yüksekliği ayarlanabilen sehpa

YÖNTEM:

1) Yay 1 cm sıkıştırılarak

| Δx (cm) | t (sn) | ΔV (cm/sn) |
|---|---|---|
| 20 - 30 = 10 cm | 0,3 sn | 66,6 |
| 30 - 70 = 40 cm | 0,7 sn | 57,1 |
| 80 - 20 = 60 cm | 0,9 sn | 66,6 |
| 110 - 30 = 80 cm | 1,2 sn | 66,6 |
| 130 - 30 = 100 cm | 1,5 sn | 66,6 |
| | | Ort = |

Yay 2 cm sıkıştırılarak

| Δx (cm) | t (sn) | ΔV cm/sn |
|---|---|---|
| 20 - 0 = 20 cm | 0,1 s | 200 |
| 70 - 60 = 10 cm | 0,3 s | 133,3 |
| 90 - 30 = 60 cm | 0,7 s | 85,7 |
| 110 - 30 = 80 cm | 1,0 s | 80 |
| 130 - 30 = 100 cm | 1,3 s | 76,9 |

ΔVort = 115,1 cm/s

| | | |
|---|---|---|
| 50 - 30 = 20 cm | 1 | 4 |
| 30 - 20 = 10 cm | 2,4 | 4,24 |
| 40 - 30 = 10 cm | 3 | 9 |
| 120 - 110 = 10 cm | 3,3 | 9,9 |
| 130 - 110 = 20 cm | 3,3 | 13,11 |
| | | |

$\sin\alpha = 0,0081$ (Normal sınıf)

$a = g \sin\alpha$

$2,5 = g\,0,0081$

$a = 1,43 \text{ cm/sn}^2 = 15,43 \text{ cm/sn}^2$

| | | |
|---|---|---|
| 0 - 20 cm | 2 sn | 4 |
| 0 - 120 cm | 5,1 sn | 14,44 |
| 0 - 80 cm | 5,2 sn | 23,04 |
| 0 - 100 cm | 6,4 sn | 49,36 |

HATA HESABI

$\frac{|2,5 - 1,43|}{2,5} = 0,57 \Rightarrow \%57$

$\frac{|2,5 - 1,43|}{2,5} = 4,49 \Rightarrow \%44,4$

Sonuç:

1/11/98

Σ. YAY $\tan\theta = \frac{340-110}{}$



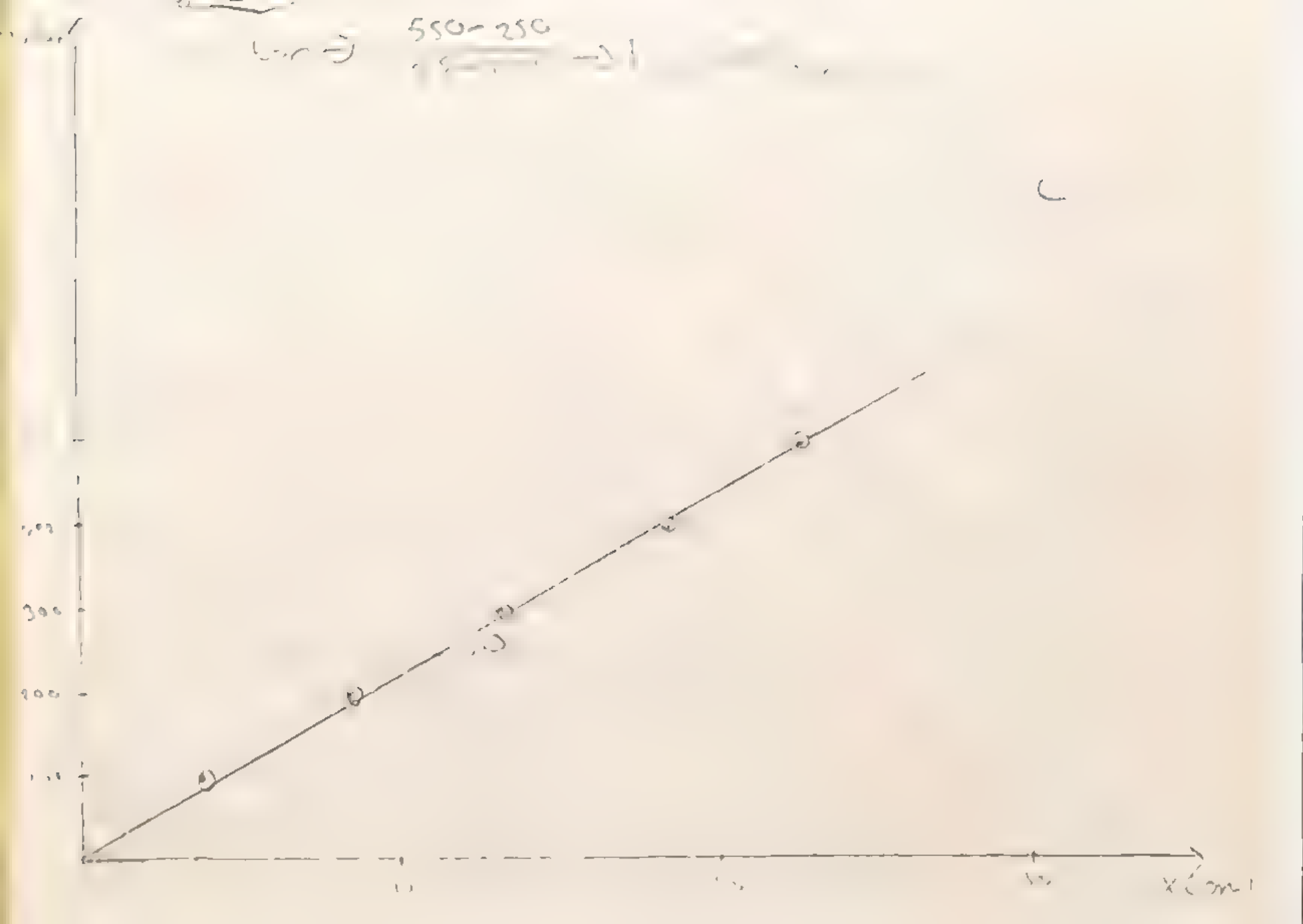

DENEYIN ADI: Bir Sarmal Yayda, Potansiyel Enerji Değişiminin ve Basit Titreşim Hareketinin İncelenmesi

AMACI: Yay sabiti ve gen çağırdı kuvvet büyüklüğünü öğrenmek, yerçekimsel enerji ve kinetik enerji büyüklüklerinin öğrenilmesi, basit titreşim hareketinin öğrenilmesi ve periyot ifadesinin deney sonuçlarından bulunmasıdır.

MALZEMELER: 1 sabitleyici bir birinden farklı 3 yay (sarmal), çengelli ağırlıklar, kronometre, cetvel ve gerçekçi deney düzeneği

KURAMSAL BİLGİ: Eğer bir cismin bir noktanın (sabit) iki yanında sağa sola yönlü titreşim hareketi yapmasıdır. Bir hareketin özel bir sebebi olan kuvvet cismin denge konumuna olan uzaklığı ile orantılı bu hareketi bir sarmal yay örnek verebiliriz. Bu yaya P=mg kuvvetiyle asılır ve yay gerilir. Yayın P=mg kuvvetiyle gerilmiş hali yayın esnekliğinden kaynaklanan esneklik kuvveti değerini bulabilmek için yay gerilmiş bir şekilde bırakılır. Bu nedenle esneklik kuvvetine geri çağırıcı kuvvet denir. Esneklik sınırını aşmamış bir yayın kütlesi ihmal edilebilir olmak üzere;

$F = -kx$ bir $F$ = Potansiyel enerji dolu yay gerilir ve denge konumuna gelirken değişkenlik gösterir. Yay sıkıştırıldığında veya gerildiğinde sistemin depolanan enerjisi $E_p = \frac{1}{2}kx^2$ potansiyel enerji değişimi

$\Delta E_p = \frac{1}{2}k(x_2^2 - x_1^2)$ dir

Bir yayın sarılma durumunda tam bir titreşim yapmasına geçen zamana periyot denir. Birim zamandaki periyot sayısına frekanstır. T periyot, f frekans olmak üzere

Sürtünmenin ihmal edildiği A, hareket etkisi yol B'ye dönüşür ve potansiyel enerjiye dönüşür.

| | | | |
|---|---|---|---|
| | | | |
| | | | |
| | 3,4 | 3,5 | 1,6 |
| | 14,7 | 8,5 | 3,2 |
| | 25,0 | 13,3 | 4,8 |
| | 22,2 | 18,0 | 6,5 |
| | 56,3 | 22,9 | 8,1 |

YAPILAN HESAPLAMALAR

1 30,5
2 50,2

| $x_0$(cm) | $x_1$(cm) | $x_2$(cm) $(x_2-x_1)$cm | yapılan iş (erg) | Esnemiş potansiyel | $\Delta P$ |
|---|---|---|---|---|---|
| 22,9 | 20 | 25,9 | 5,9 | 29542766 | 25500000 | 4266 |
| 22,9 | 15 | 30,7 | 15,7 | 78727098 | 78500000 | -22902 |
| 22,9 | 10 | 36,0 | 26,0 | 130 47166 | 130000000 | 47164 |
| 22,9 | 5 | 40,5 | 35,5 | 176207 62 | 177500000 | -12924 |
| | | | | | | |

Deneyde $x_0$ yani uygun uzunluğun cm. di Burada $x_0$'ı başlangıç noktası olarak aldığımız için $x_0 = 0$ cm aldım ve $x_1$ ve $x_2$ uzunluklarını bu noktaya göre ölçtüm

$10^{-7}$ ile çarparak J'a çevirdik.

II. DENEY: Yaylar Bağlantısının Bulunması

Bir yaya ... ağırlıklar ... ve ... ölçülmüştür.

| m(g) | t(s) | $T = \frac{t}{n}$(s) | $T^2$ (s²) |
|---|---|---|---|
| 100 | 10 | 0,5 | 1,0 |
| 200 | 13,4 | 0,67 | 14,14 |
| 300 | 16,7 | 0,84 | 12,32 |
| 400 | 13,2 | 0,96 | 20,00 |
| 500 | 20,2 | 1,01 | 22,36 |

Periyodun kütleye bağlı olarak değişimi

$n_1 = 20$ salınım olmak üzere;

| $x_0$(cm) | $x_1$(cm) | $x_2$(cm) | k (dyn/cm) | $\frac{1}{k}$ (cm/dyn) |
|---|---|---|---|---|
| 1 | 13818 | 25,4 | 1,26 | 117,5 | 0,0085 |
| 2 | 21818 | 20,2 | 1,01 | 147,2 | 0,0067 |
| 3 | 6154 | 12,0 | 0,6 | 247,4 | 0,0040 |

Grafiğin Eğimi:

1) $k_1 = 13818$ dyn/cm

$k_2 = 21818$ dyn/cm

$k_3 = 6154$ dyn/cm.

2) Yayın potansiyel enerjisi: $E_1 = \frac{1}{2}k(x_2^2 - x^2) = \frac{1}{2}21818(x_2 - x)^2 = 29542766$ erg

$E_2 = \frac{1}{2}k(x_2^2 - x_1^2) = \frac{1}{2}21818(x_2 - x_1) = 78727098$ erg

$E_3 = \frac{1}{2}k(x_2^2 - x_1^2) = \frac{1}{2}21818(x_2 - x_1) = 176207625$ erg

Cismin potansiyel enerjisi: $E_1 = mgh = 500 \cdot 980 \cdot 5,9 = 2900000$ erg

$E_2 = mgh = 500 \cdot 980 \cdot 15,7 = 7700000$ erg

$E_3 = mgh = 500 \cdot 980 \cdot 26 = 13000000$ erg

3) Grafikler çizildi

$k_1$ için bağıntı: $\frac{4\pi^2}{T^2}$

$k_2$ için bağıntı: $\frac{1}{T^2}$

SONUÇ: Bütün deneyler sonucunda yayın uzunluğunun ve ağırlığın bağımlı olduğu bağıntıyı bulduk. Bu bağıntıyı bulmak için yayın ucuna farklı ağırlıklar asarak yayın uzamasını ölçtük. Ayrıca yayın ucuna sabit ağırlıklar asarak yayın farklı uzunluklarını ölçtük. Bu ölçümler sonucunda yayın uzunluğunun ve ağırlığın bağımlı olduğu bağıntıyı bulduk.

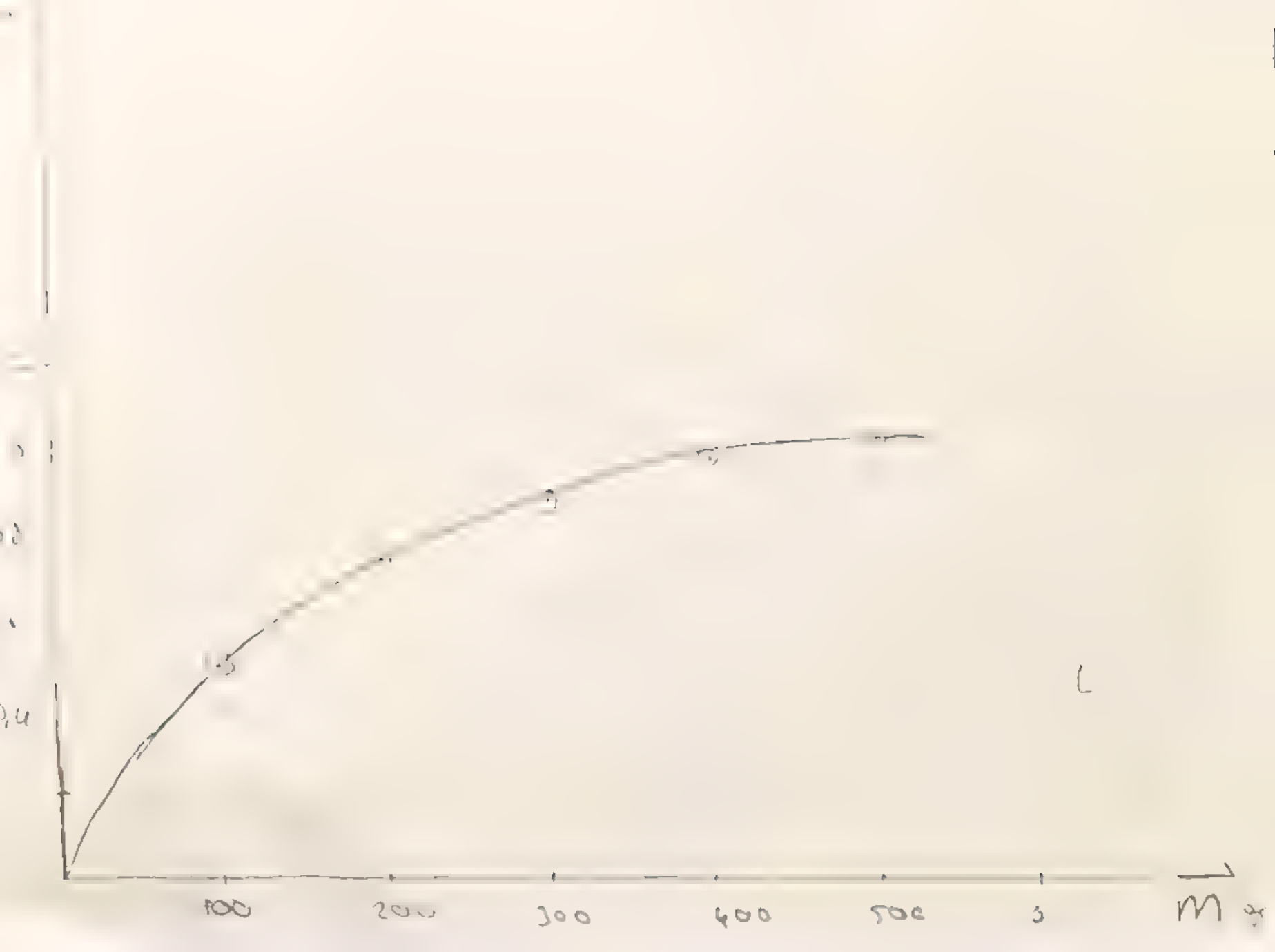
100
200
300
400
500
m

$$\frac{\quad}{8,9-4} \Rightarrow k_3 = 61224 \text{ dyn/cm.}$$

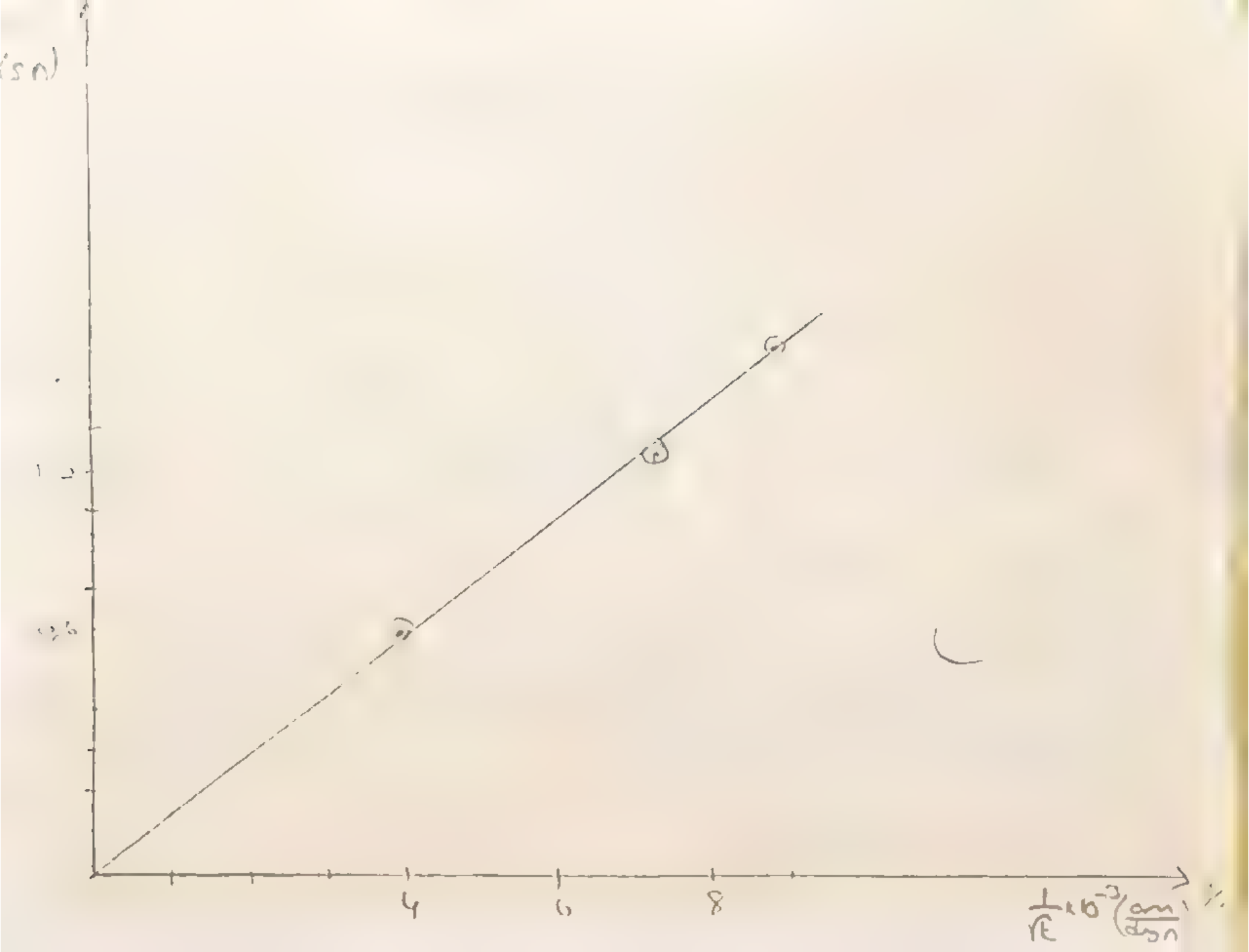
(sn)
1
½
4
6
8
$\frac{1}{\sqrt{E}} \times 10^{-3} \left(\frac{cm}{dyn}\right)^{\frac{1}{2}}$


T
1,2
1,0
0,6
1
2

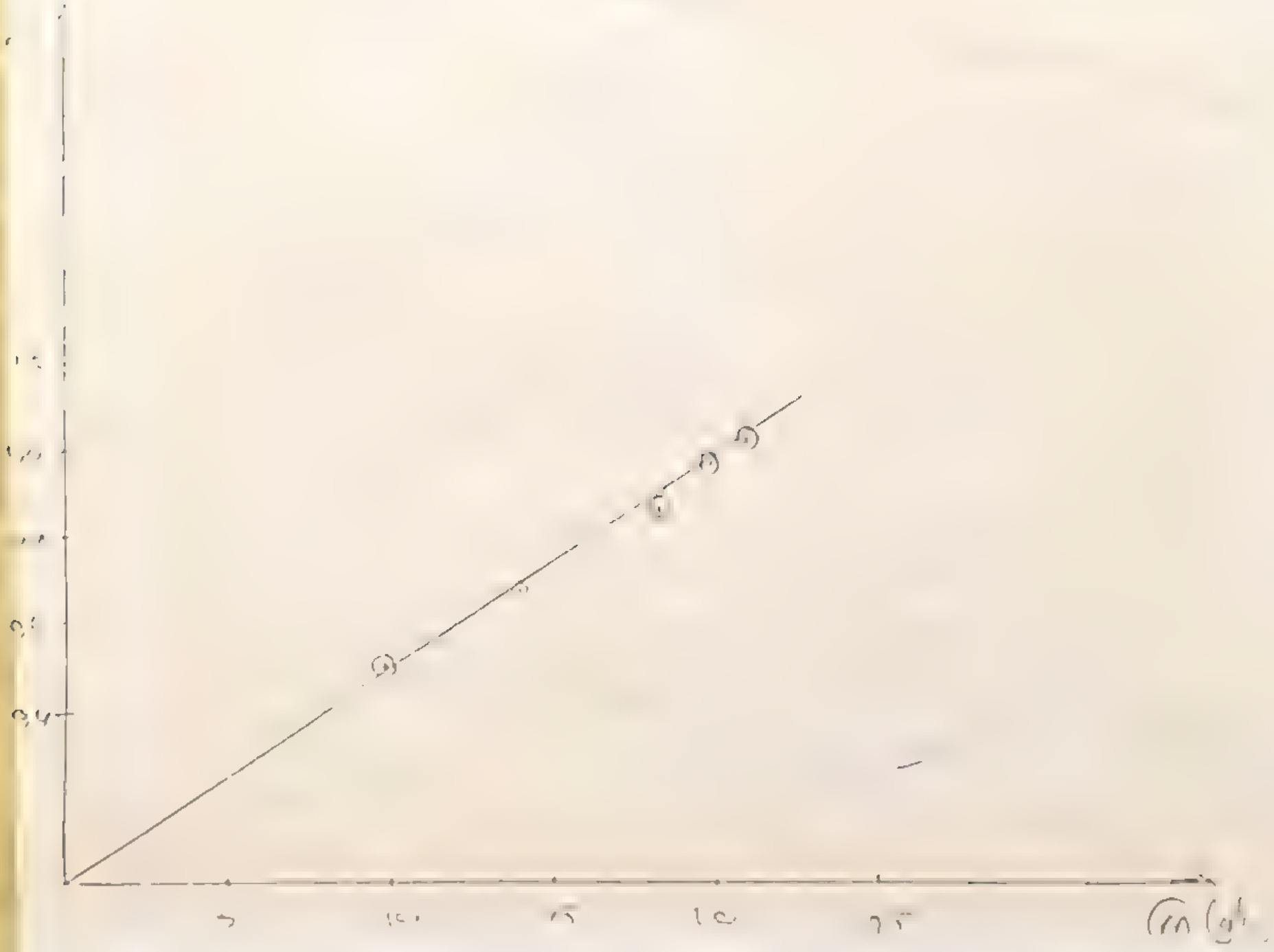

SOLUCION CAPITULO

Potansiyel enerjinin Dönmeler için Bağıntısı

T. Dönme Enerjisi

Toplam Dönme için.

DENEYİN ADI: İKİ BOYUTLU UZAYDA ÇARPIŞMA

AMAÇLAR: İki cismin çarpışması olayında momentumun korunumunu ilkesinin incelenmesi. II. Çarpışmada malzemelerinin korunumunu incelenmesi III. Olay sonuçlarından yararlanarak çarpışan cisimlerin kütlelerinin oranının bulunması

ARAÇLAR: Eş değer kütleli iki bilya, bir cam bilya, tabaka kağıdı, karbon kağıdı, düzeneği, cetvel, ağırlık ölçer

KURAMSAL BİLGİ:

1) Kütlesi $m$, hızı $\vec{v}$ olan bir cismin çizgisel momentumu $\vec{p} = m\vec{v}$ dir. Hız vektörel olduğundan momentumda vektörel bir niceliktir.

2) Bir sistemi oluşturan cisimler üzerine dış kuvvetler etki etmiyorsa sistemin toplam momentumu sabit kalır.

3) Çarpışma olasılığı: Bu sistemde, dışarıdan kuvvetler içten çarpışmadan önceki momentum korunur. Sürtünmesiz çarpışmadan önce kütleleri $m_1$ ve $m_2$ olan iki cismin çarpışmadan önceki hızları $\vec{v}_1$, $\vec{v}_2$ ise

$$m_1\vec{v}_1 + m_2\vec{v}_2 = m_1\vec{v}_1' + m_2\vec{v}_2'$$ olur (Bu toplama VEKTÖREL TOPLAMA)

4) Eğer çarpışmada kinetik enerjide (sistemin) korunuyorsa bunu esnek çarpışma denir

$$\frac{1}{2}m_1v_1^2 + \frac{1}{2}m_2v_2^2 = \frac{1}{2}m_1v_1'^2 + \frac{1}{2}m_2v_2'^2 \text{ dir.}$$

5) Esnek olmayan çarpışmada enerjinin bir kısmı ısı enerjisine dönüşeceğinden kinetik enerjinin korunumundan söz edilemez. Örneğin bir mermi tahta bir bloğa çarpması.

6) Dışarıdan bir kuvvetin olmadığı durumda momentumun korunumu ilkesi geçerlidir.

7) Çarpışan iki cismin çarpışmadan sonraki doğrultuları, çarpışmadan önceki doğrultuları ile aynı düzlemdedir yönleri değişebilir.

8) Momentumun korunumunu her iki boyutta geçerli olmak için x ve y olarak alırsak.

$\vec{v}_{1x} = m_1\vec{v}_{1x} + m_2\vec{v}_{2x}$ (SKALER VEKTÖREL)

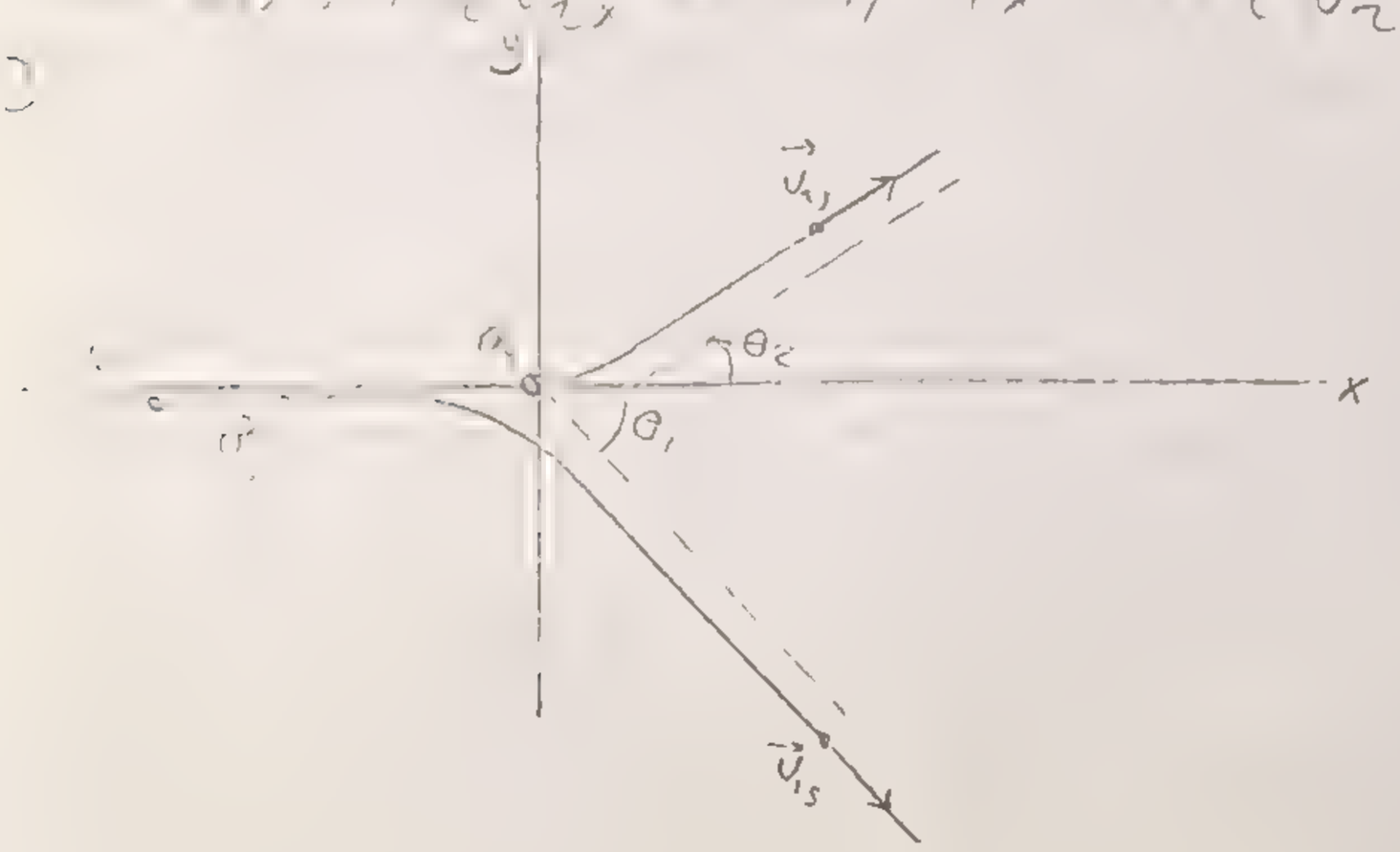


Kütleleri $m_1$ ve $m_2$ olan iki parçacığın çarpışmasında sürtünmeyi ihmal edebiliriz. Hava ortamı bu çarpışmadan önce ve sonra bu parçacıkların hızlarını değiştirmez. Hava ortamı bu parçacıklara momentum aktarmaz.

Yukarıdaki şekiller yok sayarak duran bir cisme bir parçacığın fırlatıldığını düşünelim. Bu cins çarpışmalarda momentum korunduğundan hareket, çarpışmadan sonra parçacıkların izlediği yönlerden kolayca elde edilir.

Şekildeki parçacığın ilk doğrultusuyle bu doğrultuya, hedef çekirdeğinden çizilen paralel çizgilerin arasındaki açıya çarpışma parametresi denir. Bu uzaklık ($b = 0$) sıfırsa çarpışmanın merkezi olduğunu gösterir.

Kütlesi $m_1$ olan gelen parçacık, çarpışmadan sonra geliş doğrultusuyla $\theta_1$ açısı yapacak şekilde saçar. Hedef büyük kütleli çekirdeğe çarpmadan önce gelen parçacığın gelişi doğrultusuyla $\theta_2$ açısı yapacak şekilde hareket eder. Bu vektörel eşitliği bu çarpışma için ayrı ayrı yazılırsa iki skaler eşitlik bulunur. Bunlar x bileşeni için

$$m_1 v_{1i} = m_1 v_{1s} \cos\theta_1 + m_2 v_{2s} \cos\theta_2$$

y bileşeni için;

$$0 = m_2 v_{2s} \sin\theta_2 - m_1 v_{1s} \sin\theta_1 \text{ olur}$$

Çarpışma esnek ise; $\frac{1}{2} m_1 v_{1i}^2 = \frac{1}{2} m_1 v_{1s}^2 + \frac{1}{2} m_2 v_{2s}^2$ (Bilinir)

EK BİLGİ:

① Newton'un III. yasasına göre iç kuvvetler, birbirini etki doğrultusunda, ters yönlü kuvvetlerdir (yani bir noktaya bir kuvvet etki ettiriyorsa o noktaya ayrı doğrultuda ters yönde, aynı büyüklükte bir kuvvet daha etki ettiriyorsa iç kuvvetlerin toplamı sıfır olacaktır ve ivmelendirmeye etki eden dış kuvvetten söz edilecektir.)

② Newton'un II yasasından $\vec{F} = m\vec{a}$ ve $a = \frac{d\vec{v}}{dt} \Rightarrow \vec{F} = m\frac{d\vec{v}}{dt}$ olur. Buradan $\vec{F}dt = m d\vec{v}$ ($\vec{F}$ kuvveti $dt$ süresince cismin hızında $d\vec{v}$ değişimi oluşturur)

$\vec{F}dt \rightarrow$ itme adını alır

Kuvvet $(t_2 - t_1)$ aralığında etkiliyse $t_1$ anındaki hızı $\vec{v}_1$ de de $\vec{v}_2$ ise

$$\int_{t_1}^{t_2} \vec{F}dt = \int_{v_1}^{v_2} m\, d\vec{v} \Rightarrow \vec{F}(t_2 - t_1) = m(\vec{v}_2 - \vec{v}_1)$$

$t_1 = 0$'da $\vec{v}_1 = 0$, $t_2 - t$'de $\vec{v}_2 = \vec{v}$ alırsak

$\vec{F}t = m\vec{v}$ olur. Yani $t$ süresince $F$ kuvvetinin cisme etkimesi sonucu cisim $\vec{v}$ hızını kazanmıştır. Eşitlik vektörel olduğu için, itme (kuvveti yönünde bir hız değişimidir)

③ $m\vec{v}$ çarpımına cismin çizgisel momentumu denir. $\vec{p} = m\vec{v}$ ile tanımlanır. Momentum vektörel bir niceliktir ve $\vec{v}$ hızı ile aynı yönlüdür. Momentum, cisimden seçilen gözlem ekseninden bağımsızdır.

④ Hız vektörü gerçek ve [illegible] bir niceliktir. Buna karşılık momentum türetilerek bulunan kinematik bir niceliktir. Bunda kütlenin hareketlerindeki değişim nedenlerine bağlı olarak türetilmiş bir niceliktir.

⑤ Aşağıda momentumun anlaşılabilmesi ve özelliklerini anlamada kolaylık sağlayan iki eğlenceli örneği verilmiştir.

Sistem 1:

Eğik atış yapan bir bomba havada patlatılıyor. Parçalar tahmin edildiği gibi dağılıyor. Sistemin sonraki hareketi için ne söylersiniz?

Patlamaya neden olan kuvvetlere iç kuvvetler neden olmuştur. Bu kuvvetler parçaların parçacıklarının momentumunu değiştirir fakat sistemin toplam momentumunu değiştiremez yalnızca dış kuvvetler (ağırlık) momentumu değiştirebilir. Eğer patlamada bir dış kuvvetin olmadığını kabul edersek o zaman kuvvetin momentumu değişmez ve dış kuvvetlerin bu noktaya uygulanmış gibi alınabileceğini görmüştük. Eğik atış parçacıkların parçacıklar kütle merkezinin aynı yörüngeyi izlediğini belirtmiştik. Patlamadaki momentumundaki değişim ağırlıktan dolayıdır.

Sistem 2' de ise durum biraz daha farklıdır. Hareketsiz bir kütle merkezi (sürtünmesiz) üzerinde bir bumerang fırlatılıyor. Bumerang geri dönüş yapıyor.



Bumerang (yerden referans) çiftidir. Bu bölümde bumerangın kütle merkezine göre hareketini inceleyeceğiz.

Bumerang fırlatıldıktan sonra $v_1$ ve $v_2$ hızlarıyla hareket eder. Bumerang a kütlesinden ayrılan kütle ($\vec{F}_1$) adını alır. b kütlesinden ayrılmıştır b ise $m_b \vec{v}_2$ momentumu taşır.

Sistem kütle merkezine göre momentum 0 dır. Bu değerlere ettiğe göre sistemin momentumu dır.

$\vec{P}_{ilk} = \vec{P}_{son} \Rightarrow 0 = m_a \vec{v}_1 + m_b \vec{v}_2 \Rightarrow m_a \vec{v}_1 = -m_b \vec{v}_2$

olur. Sabit değer olarak $m_a v_1 = m_b v_2$ dir. Buradan $\frac{m_a}{m_b} = \frac{v_2}{v_1}$ Buna göre m büyüdükçe 0 olur.

Bu sistemde sürtünmesiz F kuvvetleri değişebilir. Ama her anda $\frac{m_a}{m_b} = \frac{v_2}{v_1}$ bu şekilde uygulanan itmeler eşittir.


Kaynaklar: Fundamentals of Physics D. Halliday - R. Resnick, 1984
Fizik (Temel İlkeler) (Cilt I) D. " " - R. " , Prof Dr. Cengiz Yalçın 1984.
Devinim, T. Prof Dr. Demir İnan, 1983
Temel Fizik Deneyleri Laboratuvar Klavuzu, Doç Dr. Reza Sungur, 1990.

VERİLER:

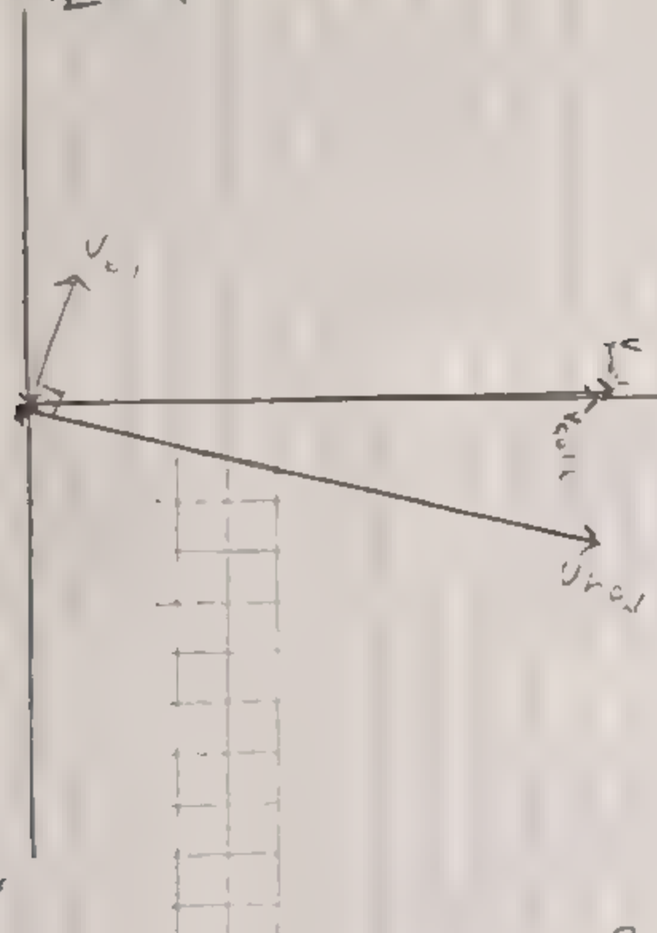



$$\frac{1}{2} m U_1^2 + \underbrace{\frac{1}{2} m U_2^2}_{0} = \frac{1}{2} m U_1'^2 + \frac{1}{2} m U_2'^2$$

$$U_1^2 = U_1'^2 + U_2'^2 \Rightarrow$$

$$m_1 U_1 + m_2 U_2 = m_1 U_1' + m_2 U_2' \qquad m = m_2$$

$$46,4 + 0 = \vec{U_1'} + \vec{U_2'} \Rightarrow 46,4 = 46,4$$

Momentum korunuyor.

II. Kesim.

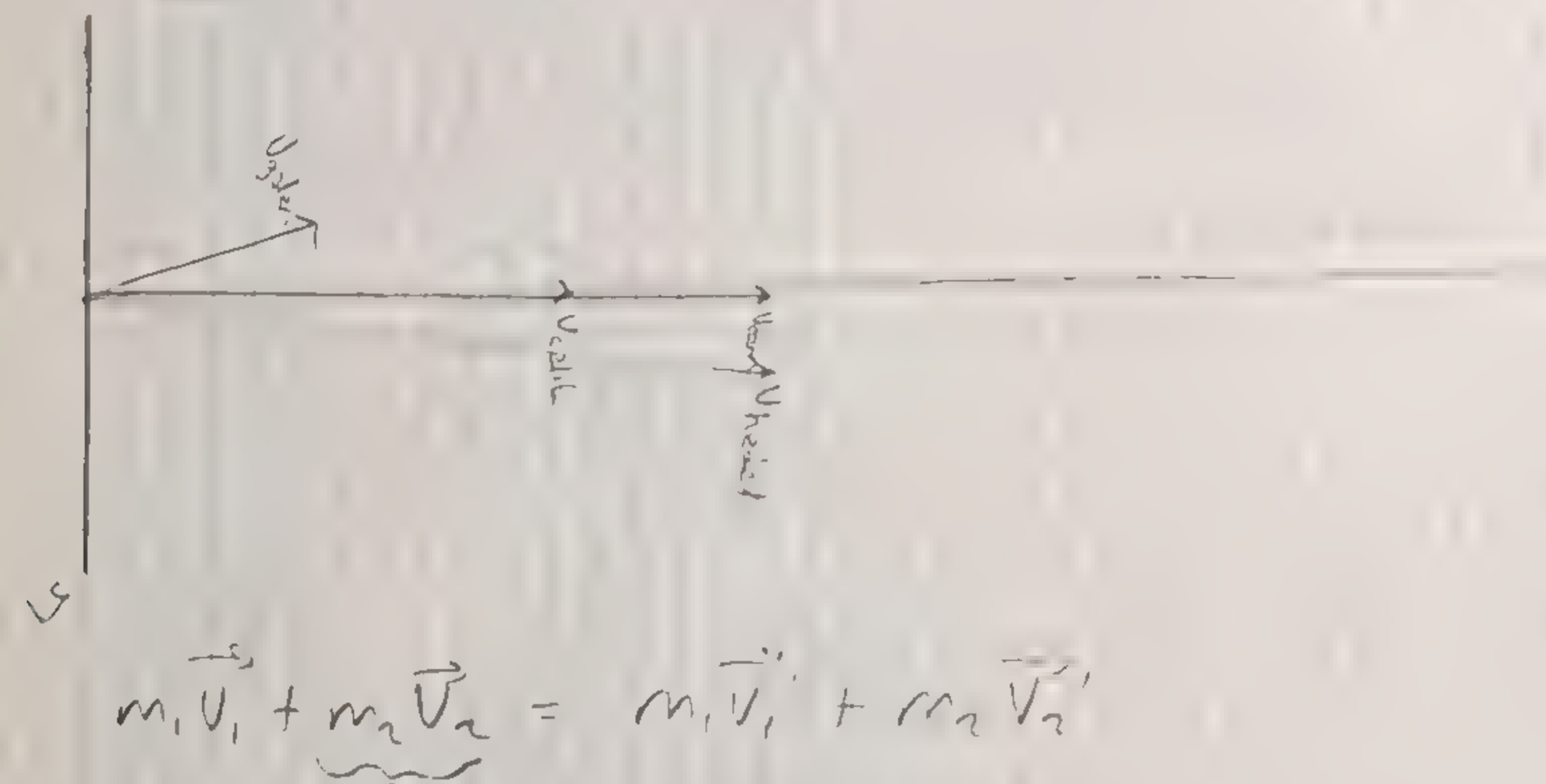

$$m_1 \vec{U_1} + m_2 \vec{U_2} = m_1 \vec{U_1'} + m_2 \vec{U_2'}$$

$$m_1 (\vec{U_1'} - \vec{U_1}) = m_2 \vec{U_2'}$$

$$\frac{m_1}{m_2} = \frac{\vec{U_2'}}{U_1 - U_1'}$$ Kütlelerin oranı.

$$\frac{m_1}{m_2} = \frac{64}{42,5} = 1,50$$

$$\left(\frac{m_1}{m_2}\right)_{deney} \neq \left(\frac{m_1}{m_2}\right)_{teorik}$$

Eğik atış teorisiyle

$$\frac{m_1}{m_2} = \frac{22,5}{5,5} = 3,7$$

15.11.1990

CEVAPLAR.

DENEYİN ADI: İTİCİ KUVVETLER

DENEYİN AMACI:

1- İtici ve korunumlu kuvvetlerin özelliklerini

2- İtici kuvvetlerin örneklerini

ARAÇ VE GEREÇLER: Hava Tayı, kıvrakları, kronometre, cetvel, terazi gram ağırlıkları, mıknatıs, mıknatıs

TEORİK BİLGİ:

Korunumlu kuvvetler: Bir parçacığın A'dan B'ye götürülmesiyle yapılan A'dan B'ye giderken izlenen yolun bağımsız olduğu kuvvet korunumlu kuvvetlerin başka bir yol izlenirken yapılan iş sıfırdır. Bu tür kuvvetlerin neden olduğu [illegible] İtici kuvvetler: İtici kuvvetlerin [illegible] bu tür kuvvetlere sürtünme kuvveti [illegible] sürtünme kuvvetleri [illegible] cisimlerin [illegible] kuvvetler örnek [illegible]

F = Uygulanan dönme kuvveti

n = Hızın (büyüklüğü) ile değişen [illegible] sabiti

A = Hava tabakasının yüzeyi

U = Kıvrakların [illegible] hızı

d = Hava tabakaları arasındaki [illegible] olmak üzere

$$F = -\frac{nAU}{d}$$ olur.

(-) işaretinin anlamı F ve V'nin ters yönde olmasıdır. Şimdi b. değerini bulmaya çalışalım. F = -bv (b = sürtünme katsayısı) Newton'un II. kanunu ma = -bv

$$-bv = \frac{dv}{dt} \cdot m$$

İvmeyi hızın zamana göre değişimi olarak yazarsak

$$\frac{dv}{dt} \cdot \frac{dv}{dx} = -bv = m\frac{dv}{dx} \quad \text{ve} \quad \frac{dv}{dx} = -\frac{b}{m}$$

nin integralini alırsak

$$\int \frac{dv}{dx} = -\int \frac{b}{m}\,dx \Rightarrow v = -\int \frac{b}{m}\,dx = v_0 - \frac{b}{m}x$$

$v_0$ [illegible] anlamına gelir. Sürtünme [illegible] hızı ise $v = v_0 - \frac{b}{m}x$

v = 0 konum durdurucu yazılır. Bu durdurucu [illegible] bulacağımız [illegible]

$$v_c = \frac{m}{b}x \Rightarrow x = \frac{mv_0}{b}$$

$x = \frac{mv_0}{b}$ denkleminde x, m ve $v_0$ [illegible] değişkenleri [illegible] b = $\frac{mv_0}{x}$ olur

$$\frac{1,25-0,2}{2,3-1,8} = 1,5$$



KESİM BİR: İlk olarak hava rayını yatay konuma getirdik. Kızağı ra-
yın uçuna kadar [illegible] ve olarak aldık. $x_0$ =
Yayı 1 cm sıkıştırarak ilk [illegible] ve cm'yi ne kadar bir-
[illegible] Buradan ilk hızı hesapladık. Daha [illegible]
[illegible] Sonra ne kadar [illegible] aldığını [illegible] ve
[illegible] deneyimleri [illegible] kesim kadık işlemi 2 kez tekrarladık.

$\Delta x = 7$ cm
$t = 0,350$ s
$m = 644$ gr.

$$V_0 = \frac{7}{0,350} = 20 \text{ cm/s}.$$

$$X_1 = (158-29) + 14(169-29) = 2089 \text{ cm}$$

$$b = \frac{mV_0}{X} = \frac{644 \cdot 20}{2089} = 6,16 \text{ gr/s}$$

2. kez $\Delta x = 7$cm
$t = 0,483$
$m = 861$ g.

$$V_0 = \frac{7}{0,483} = 14,49 \text{ cm/s}$$

$$X_1 = (171,4 - 23,5) + 12(176,8 - 23,5) = 1999,3 \text{ cm}$$

$$b = \frac{mV_0}{X} = \frac{8614,49}{1999,3} = 6,24 \text{ gr/s}$$

[illegible]

[illegible]

| [illegible] | [illegible] | [illegible] | [illegible] | [illegible] | b |
|---|---|---|---|---|---|
| [illegible] | [illegible] | [illegible] | [illegible] | [illegible] | 6,15 |
| [illegible] | [illegible] | [illegible] | [illegible] | [illegible] | 6,24 |
| | | | | | |

KESİM İKİ: $x_0 = 160$

| $x_1$ (cm) | $x$ | $\Delta x$ (cm) | $\ln \frac{x_0}{x_1}$ | $\ln \frac{x_0}{x}$ | $\Delta x$ (cm) | $\ln \frac{x_0}{x}$ |
|---|---|---|---|---|---|---|
| 142,3 | 10 | 17,7 | 1,24 | 2,77 | 17,0 | 1,23 |
| 128,7 | 20 | 13,6 | 1,13 | 2,08 | 0,3 | -(illegible) |
| 114,3 | 30 | 14,4 | 1,16 | 1,70 | | |
| 107,3 | 40 | 7,0 | 0,65 | 1,39 | | |
| 105,8 | 50 | 1,5 | 0,60 | 1,10 | | |
| 103,3 | 60 | 2,5 | 0,30 | 0,92 | | |
| 101,1 | 70 | 2,2 | 0,46 | 0,75 | | |
| 96,7 | 80 | 4,4 | 0,34 | 0,59 | | |
| 93,7 | 90 | 3,0 | 0,69 | 0,47 | | |
| 89,5 | 100 | 4,2 | 0,64 | 0,36 | | |
| 85,1 | 110 | 4,4 | 0,86 | 0,26 | | |
| 81,1 | 120 | 4,0 | 0,47 | 0,18 | | |
| 79,2 | 130 | 1,9 | 0,22 | 0,11 | | |
| 77,2 | 140 | 2,0 | 0,62 | 0,05 | | |
| 75,3 | 150 | 1,9 | 0,27 | 0,01 | | |
| 73,3 | 160 | 2,0 | 0,09 | 0,00 | | |
| 71,4 | 170 | 1,9 | 0,03 | 0,01 | | |
| 69,4 | 180 | 2,0 | 0,09 | 0,05 | | |
| 67,5 | 190 | 1,9 | 0,12 | 0,10 | | |
| 65,5 | 200 | 2,0 | 0,35 | 0,15 | | |
| 63,6 | 210 | 1,9 | 0,34 | 0,22 | | |
| 61,7 | 220 | 1,9 | 0,30 | 0,29 | | |
| 59,8 | 230 | 1,9 | 0,32 | 0,36 | | |
| 57,9 | 240 | 1,9 | 0,39 | 0,44 | | |
| 56,9 | 250 | 1,0 | 0,08 | 0,51 | | |
| 54,9 | 260 | 2,0 | 0,22 | 0,59 | | |
| 52,9 | 270 | 2,0 | 0 | 0,67 | | |
| 50,9 | 280 | 2,0 | 0 | 0,75 | | |
| 48,9 | 290 | 2,0 | 0,08 | 0,84 | | |
| 47,0 | 300 | 1,9 | 0,21 | 0,92 | | |
| 45,1 | 310 | 1,9 | 0,35 | 1,01 | | |
| 43,2 | 320 | 1,9 | 0,34 | 1,11 | | |
| 41,3 | 330 | 1,9 | 0,30 | 1,21 | | |
| 39,4 | 340 | 1,9 | 0,32 | 1,32 | | |
| 37,5 | 350 | 1,9 | 0,39 | 1,43 | | |
| 36,5 | 360 | 1,0 | 0,08 | 1,56 | | |
| 34,5 | 370 | 2,0 | 0,22 | 1,68 | | |
| 32,5 | 380 | 2,0 | 0 | 1,81 | | |
| 30,5 | 390 | 2,0 | 0 | 1,95 | | |
| 28,6 | 400 | 1,9 | 0,06 | 2,09 | | |
| 26,7 | 410 | 1,9 | 0,18 | 2,24 | | |
| 24,8 | 420 | 1,9 | 0,25 | 2,40 | | |
| 23,8 | 430 | 1,0 | 0,08 | 2,57 | | |
| 21,9 | 440 | 1,9 | 0,18 | 2,75 | | |
| 20,0 | 450 | 1,9 | 0,25 | 2,94 | | |
| 18,1 | 460 | 1,9 | 0,32 | 3,14 | | |
| 16,2 | 470 | 1,9 | 0,39 | 3,36 | | |
| 15,2 | 480 | 1,0 | 0,08 | 3,59 | | |
| 13,3 | 490 | 1,9 | 0,18 | 3,84 | | |
| 11,4 | 500 | 1,9 | 0,25 | 4,11 | | |
| 9,5 | 510 | 1,9 | 0,32 | 4,41 | | |
| 7,6 | 520 | 1,9 | 0,39 | 4,74 | | |
| 6,6 | 530 | 1,0 | 0,08 | 5,11 | | |
| 4,7 | 540 | 1,9 | 0,18 | 5,53 | | |
| 2,8 | 550 | 1,9 | 0,25 | 6,00 | | |
| 1,8 | 560 | 1,0 | 0,08 | 6,55 | | |
| 0,9 | 570 | 0,9 | 0,08 | 7,19 | | |

YORUM: Şöndeğer hareketinin bulunduğu [illegible]
de m'i (kütle) artırırsa [illegible] b=mü değeri [illegible]
[illegible] bir [illegible]
bölümde yaptıkları hareketin [illegible]
[illegible] yerlerine [illegible]

CEVAPLAR

1) BU BÖLÜMÜ İSTENMEDİĞİ İÇİN [illegible]

2) $\frac{b}{m}$ $b = \frac{mv_0}{x} = \frac{\text{g/cm}}{\text{cm}} = \text{g/s}$

Bundan sonra [illegible]
çıkar

$v_0 = \frac{x}{t}$ [illegible] $v_0 = \frac{v_0}{2}$ [illegible]

$$\int_{v_0}^{v} -bv = \int \frac{m\,dv}{dt}$$ daraltılır [illegible]

3) [illegible] $\Delta v = -\frac{2b \cdot \text{cm/s}}{\text{g}}$ [illegible]

4) [illegible]

5) [illegible] $v = \sqrt{2xy} \Rightarrow v^2 = 2xy$

[illegible]

⊙ Genlik küçük
△ Genlik büyük

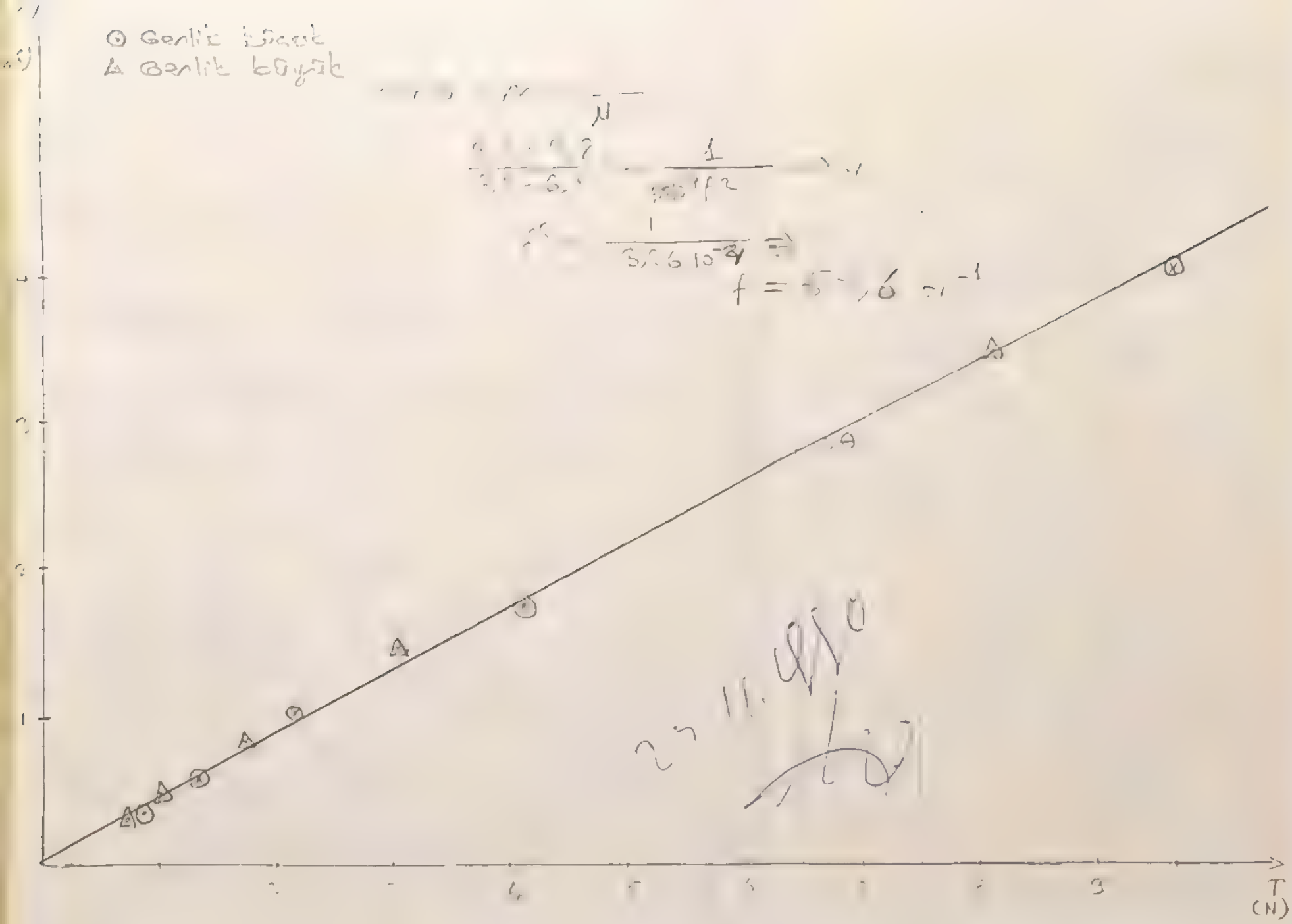

DENEYIN ADI: DURAN DALGALAR

TİD-8

DENEYİN AMACI: 1) Bir ip üzerinde duran dalgaları gözlemek

2) Bir titreşimde duran dalga boyunu,

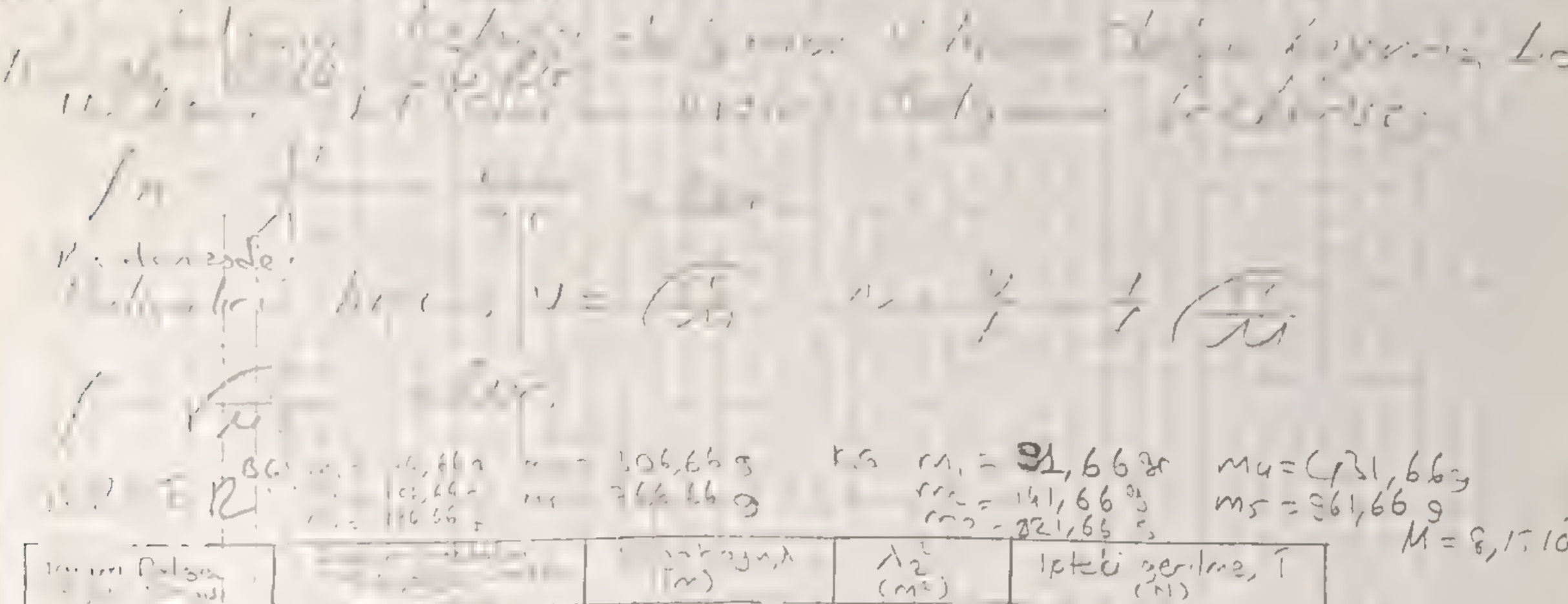

| | | | | | | | | | |
|---|---|---|---|---|---|---|---|---|---|
| | | | | | | | | | |
| 1 | 2 | 0,512 | 0,510 | 0,625 | 0,625 | 0,384 | 0,391 | 0,951 | 0,900 |
| | 3 | 0,370 | 0,332 | 0,410 | 0,415 | 0,536 | 0,616 | 1,045 | 1,388 |
| | 4 | 0,316 | 0,285 | 0,310 | 0,310 | 0,824 | 1,000 | 1,731 | 2,172 |
| 2 | 3 | 0,446 | 0,470 | 1,220 | 1,200 | 1,686 | 1,690 | 3,005 | 4,230 |
| | 4 | 0,240 | 1,000 | 1,890 | 2,000 | 3,124 | 4,000 | 3,021 | 3,424 |
| | | | | | | | | | |

$f_1$ $f_2$ $f_3$ $f_4$ $f_5$ $f_6$ $f_3$ $f_4$ $f_5$ $f_6$

$\lambda_1$ $\lambda_2$ $\lambda_3$ $\lambda_4$ $\lambda_5$ $\lambda_6$ $\lambda_3$ $\lambda_4$ $\lambda_5$ $\lambda_6$

$m_1 = 31,66$ g $m_4 = 131,66$ g

$m_2 = 141,66$ g $m_5 = 361,66$ g

$m_3 = 321,66$ g $M = 8,17 \cdot 10^{-3}$ kg/m

Grafiğinden $f = 15,6$ sn$^{-1}$ bulundu.

Yaptığımız deney sonucunda frekans 15,6 sn$^{-1}$ olarak

Yaptığımız deney sonucunda frekansın dalga boyuna göre

değişimi bulduğumuz için grafiğin T'de dalga boyunun

değişimi şeklinde olmasını bekliyorduk. Değişim sonucunda grafik hiçbir şekilde elde

edilemedi.

29.11.2020

CEVAPLAR:

① $T_{min} = 0,751$ $\quad v = \sqrt{\frac{T}{\mu}}$ $\quad$ birim boy: $\frac{1}{\mu} = \frac{m}{N}$

$v = \sqrt{\frac{1}{\mu}} = \sqrt{\frac{0,751}{8,15 \cdot 10^{-3}}} = 9,60\ m/s$

$T_{max} = 7,611$ $\quad v = \sqrt{\frac{T}{\mu}} = \sqrt{\frac{7,611}{8,15 \cdot 10^{-3}}} = 30,5\ m/s$

② [illegible] $\mu = \frac{M}{L}$ [illegible] $v = \sqrt{\frac{T}{\mu}}$ [illegible]

[illegible]

[illegible] $v_1 = \sqrt{\frac{3T}{\mu}} = 3\sqrt{\frac{T}{\mu}}$ [illegible]

[illegible] $\sqrt{\frac{1}{4\mu}} = \frac{1}{2}\sqrt{\frac{1}{\mu}}$ [illegible]

Su

Kontrolní výpočet

$$k = \frac{0{,}0265 - 0{,}0075}{2500 - 750}$$

$$k = \frac{\quad}{4900}$$

$$k = 0{,}020\ \mathrm{N/m}$$

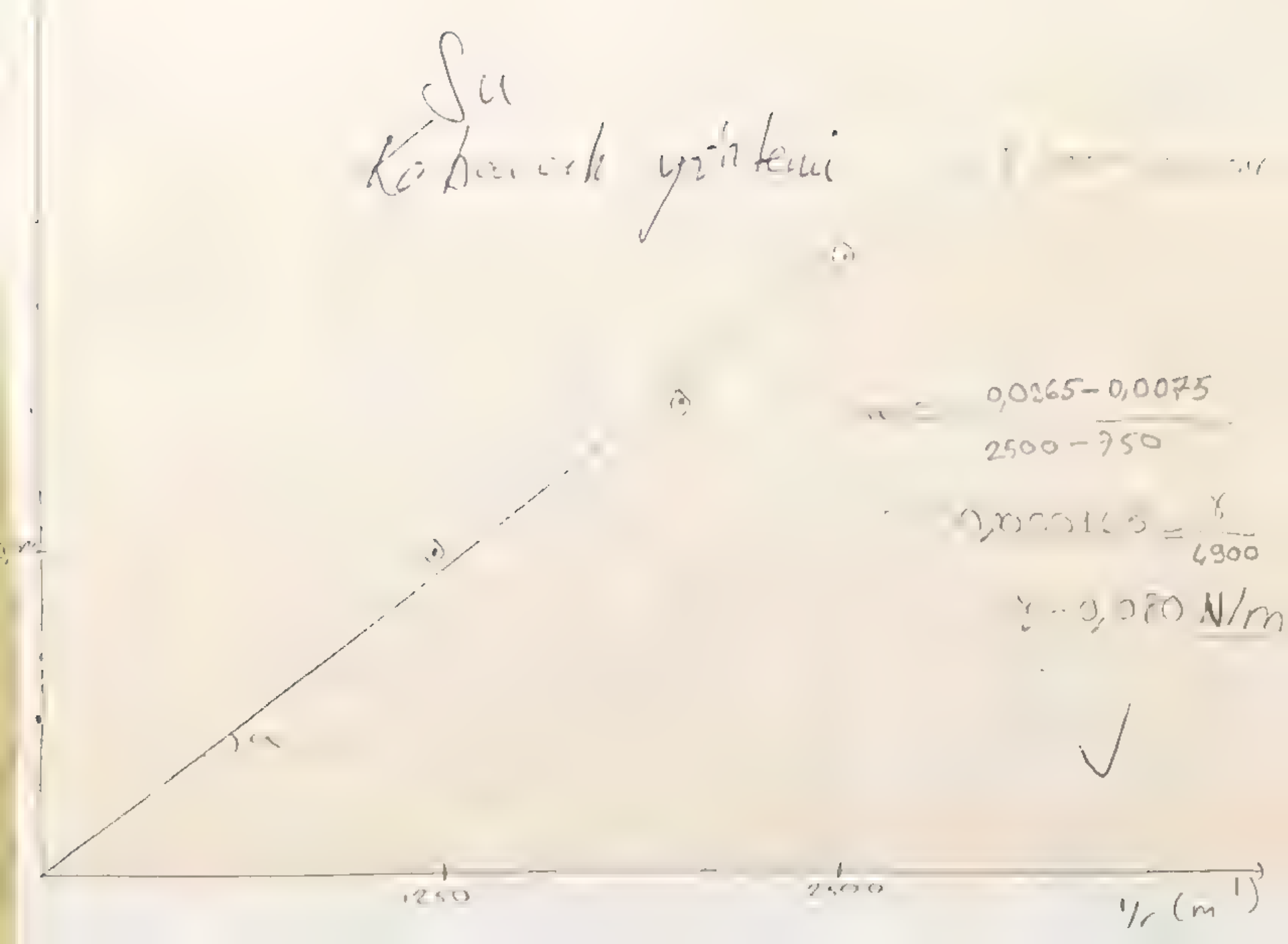

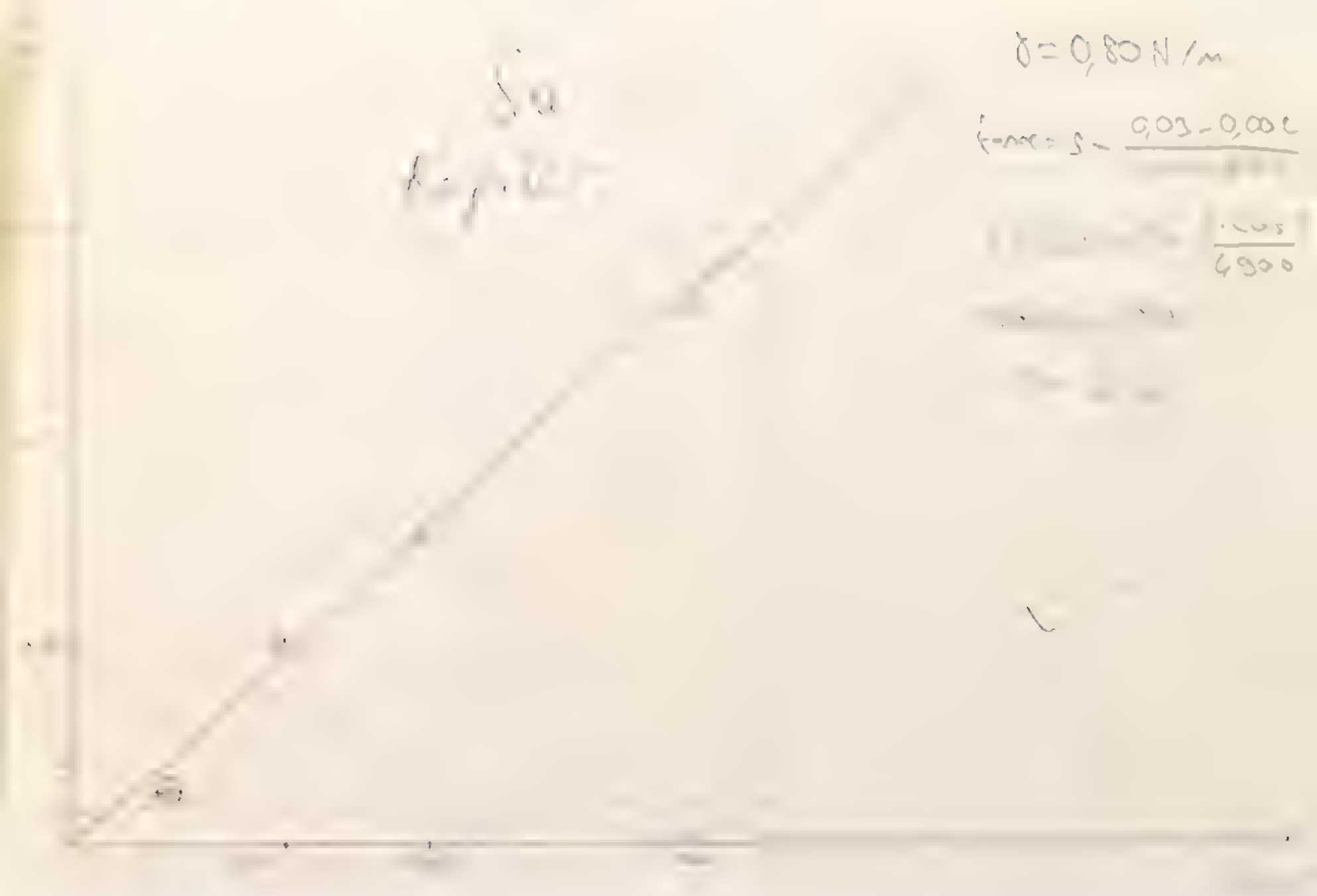

DENEYİN AMACI: Yüzey gerilimi

KURAMSAL BİLGİ. Bir sıvıyı bir oda tutan moleküller arası çekim kuvvetidir Bir sıvının içerisinde ve çeper civarında ara yüzlerde bulunan herhangi bir molekülle uygulanan toplam kuvvet sıfır olmaz bulunan molekül içerisinde ise bu durum değişmez. Bu kuvvetlerin etkisi altındadır. Bu yüzey kuvveti nedeniyle sıvıların serbest yüzeyleri en küçük yüzey alanı yapmaya çalışır.



Sıvı yüzeyinde bir gerilme vardır ve bu yüzey üzerinde değişik doğrultularda bu yüzey içinde kalan bir kuvvet etkisi oluşturur. Bu kuvvetin büyüklüğü;

$F = \gamma \ell$ dir

($\gamma$ yüzey gerilmesi (sabit bir maddenin birim uzunluğa karşı etkiyen kuvvet olarak tanımlanır)

$\ell$ ise sıvı içinde düşünülen çizginin uzunluğudur)



Basınç, birim alana etkiyen kuvvet olup kabarcık üzerine etkiyen kuvvetle yüzey gerilmesi arasındaki bağıntıyı bulabiliriz

$F_1 = p A = \bar{p} \pi r^2$ (aşağıya doğru)

Yüzey gerilimi ise yani küresel kabarcığın yüzeyinin kapiların iç yüzeyi ile temas ettiği çevre boyunca

$F_2 = \gamma 2\pi r$ olur. $F_1$ ile $F_2$ eşit yani fakat ters yönlü olarak

$\bar{p} \pi r^2 = \gamma 2\pi r$

$\bar{p} r = 2\gamma$

$\gamma = \frac{1}{2} \bar{p} r$ 'dir $\gamma$ sabit olduğundan. Kapiler kabarcığı oluşturmak için oluşturulan basınç kabarcığı oluşturmak gerekir

Kapiler tüpün iç yüzeyine sıvı tüp içinde yükselir (kapiler olayı)

$F_2 = 2\pi r \gamma \cos\theta$ ye eşittir ve sıvı kapiler tüp içinde $F_1$ ye eşit oluncaya dek yükselir. $F_1$ h yüksekliğindeki sıvı yer çekiminin uyguladığı ağırlığa yani

$F_1 = mg = \rho V g = \rho \pi r^2 h g$

$\Rightarrow 2\pi r \gamma \cos\theta = \rho \pi r^2 h g$

$\gamma \cos\theta = \frac{1}{2} \rho g h r$

JERİCER

| | | Kabarcık Öyr±emi | | | | Kapiler olayı yöntemi |
|---|---|---|---|---|---|---|
| Kapiler (mm) | Kapiler sabiti (m²) | 1/r (m⁻¹) | r (m) | ho(m) | Δh (m) | h (m) |
| 1,6 | $3\cdot10^{-4}$ | 1250 | 0,063 | 0,043 | 0,020 | 0,010 |
| 1,2 | $6\cdot10^{-4}$ | 1666,6 | 0,067 | 0,040 | 0,027 | 0,015 |
| 0,9 | $4\cdot10^{-4}$ | 2500 | 0,073 | 0,033 | 0,040 | 0,020 |

UYGULAMALARI

I. Kapiler sabiti $\gamma = \frac{1}{2}\rho g \Delta h r$

Bundan $\frac{\gamma}{\frac{1}{2}\rho g} = \frac{\gamma}{\frac{1}{2}\cdot 1000\cdot 9,8\cdot r}$

$S = 165\times10^{-7} = \frac{\gamma}{\frac{1}{2}\cdot 1000\cdot 9,8\cdot 0,020}$ $\Rightarrow \gamma = 0,080$ N/m bulunur.

II $\gamma = \cos\theta - \frac{1}{2}\rho g h r \Rightarrow h = \frac{\gamma\cos\theta}{\frac{1}{2}\rho g}$

Kabın [illegible]

$S = 1,43\times10^{-6} = \frac{\gamma\cos\theta}{\frac{1}{2}\cdot 1000\cdot 9,81\cdot 0,020}$ $\Rightarrow \cos\theta = 0,91$

$\theta = 24°$

DENEYİN SİMÜLASYONU

| | Kapiler sabiti | Kabarcık Yöntemi | | | | Kapiler olayı yöntemi |
|---|---|---|---|---|---|---|
| Kapiler | r (m) | 1/r (m⁻¹) | h (cm) | ho (m) | Δh (m) | h (m) |
| 1,6 mm | $3,10^{-4}$ | 1250 | 0,047 | 0,042 | 0,005 | 0,003 |
| 1,2 mm | $6\cdot10^{-4}$ | 1666,6 | 0,048 | 0,041 | 0,008 | 0,009 |
| 0,8 mm | $4\cdot10^{-4}$ | 2500 | 0,054 | 0,036 | 0,018 | 0,015 |

VERİLERİN GİRİLMESİ

Kapiler sabiti $\gamma = \frac{1}{2}\rho g \Delta h r$ ile $\Delta h = \frac{\gamma}{\frac{1}{2}\rho g r}$

Bundan $\frac{\gamma}{\frac{1}{2}\rho g} = \frac{\gamma}{\frac{1}{2}\cdot 1000\cdot 9,8\cdot r}$ olur. $S = 3,8\cdot10^{-4} = \frac{\gamma}{490\cdot r}$

$\gamma = 0,048$ N/m bulunur.

II) $\gamma = \cos\theta - \frac{1}{2}\rho g h r \Rightarrow h = \frac{\gamma\cos\theta}{\frac{1}{2}\rho g} = \frac{\gamma\cos\theta}{490\cdot r} = \frac{\gamma\cos\theta}{490\cdot 0,020}$

$\theta$'yı bulmak için $S = 1,43\times10^{-6} = \frac{\gamma\cos\theta}{490\cdot 0,020} \Rightarrow \cos\theta = 0,9$

$\theta = 25°$

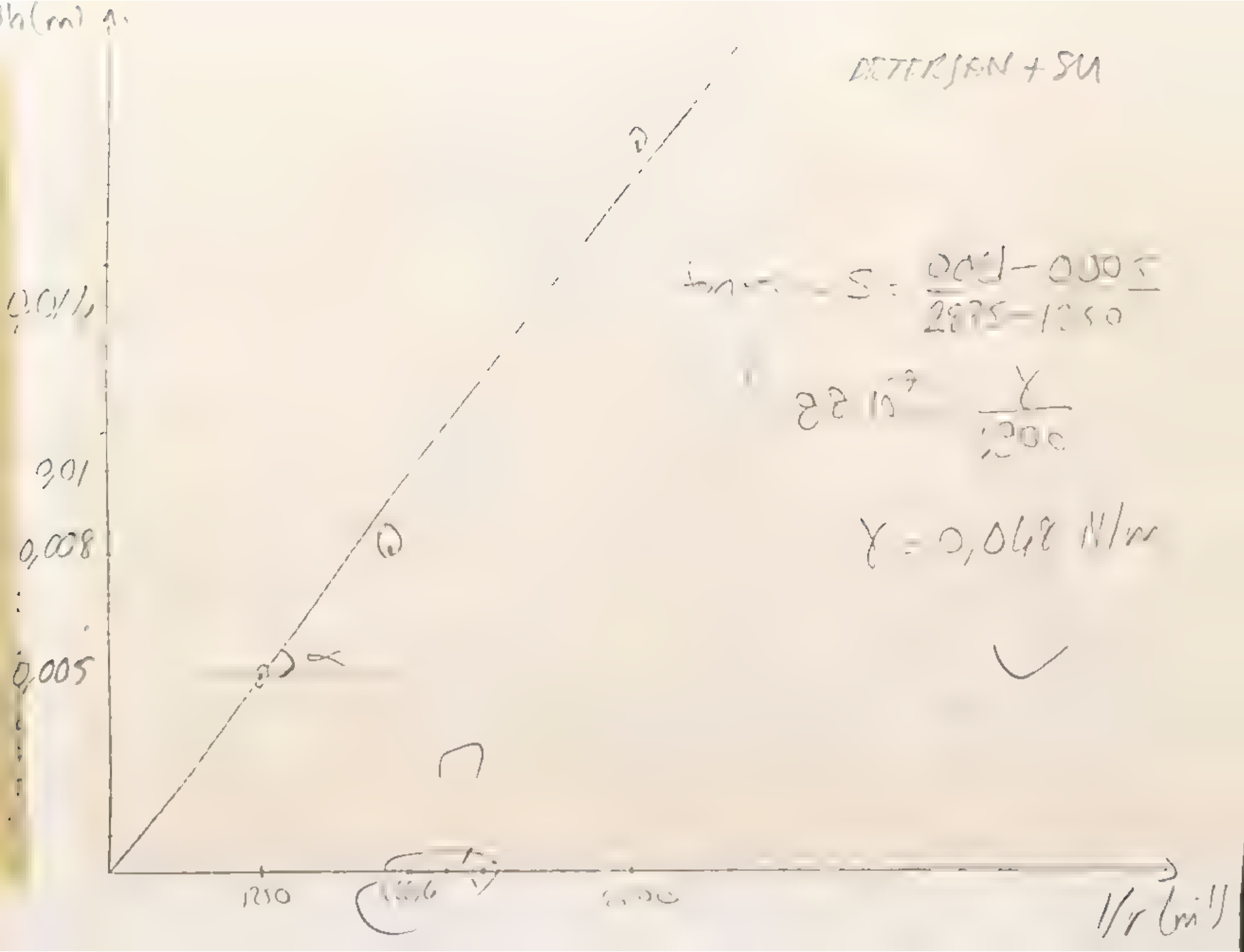
DETERJAN + SU
0,01
0,008
0,005
1/r (m⁻¹)



1- CEVAPLAR

① $\rho = \frac{m}{V} = 792\ kg/m^3$

$r = 0,15\ m$

kaborat yöntemiyle; $\Delta h = 39 \cdot 10^{-3}\ m$

$\gamma = \frac{1}{2}\Delta h \rho g r = \frac{1}{2} 39 \cdot 10^{-3}\ m \cdot 792\ kg/m^3 \cdot 9,8\ m/s^2 \cdot 0,15\ m$

$= 0,0227\ N/m$

hatalı

Kapiler Yükselme ile

$h = 32 \cdot 10^{-3}\ m$ $\quad \gamma \cos\theta = \frac{1}{2} h \rho g r$

$\gamma \cos\theta = \frac{1}{2} 32 \cdot 10^{-3}\ m \cdot 792\ kg/m^3 \cdot 0,15\ m \cdot 9,8\ m/s^2$

$\gamma \cos\theta = 0,0186\ N/m$

$0,0227\ N/m \cdot \cos\theta = 0,0186\ N/m \quad \cos\theta = 0,8206 \quad \theta = 34,6°$

② Kaborat yöntemi ile bir boşluğa ölçer kullanırsak denge konumundaki $F = 2\pi r\gamma$ yazabiliriz. Buradan; eşitliği $\gamma = \frac{1}{2}\rho g r$ olarak yazabiliriz. Böylece bir sıvının yüzey gerilimini direkt olarak ölçebiliriz. g değerini bilmeye gerek yoktur.

③


a) Ördeğin su üzerine batırmadığına göre suyun bir yüzey gerilimi vardır. Bu yüzey gerilimi $F_1 = 2\pi r\gamma = 2\pi \cdot 0,3 \cdot 10^{-2} \cdot 0,0186 = 0,00168\pi\ N$
$= 0,00135\ N$ suyun yüzey gerilimini yenerek ördeği batırır.

b) Bu durumda ördeğin ağırlığı kuvvet ölçmeden sıvının yüzey gerilimini yaklaşık olarak gösterir.

$= 0,13\ gr.$

KESİM II

① Katı cisimlerin yüzeyleri ile sıvı yüzeyleri arasındaki kuvvetten ötürü

② $\sigma = \frac{1}{2}\rho g r$ formülünde $\rho$'yu çekerek $\rho = \frac{2\sigma}{ghr}$

Bir sıvının yoğunluğunu bilmediğimiz bir kapta yükseklik ölçerek veya diğer niceliklerde yerine koyarsak;

$\rho = \frac{\rho_1 V_1 + \rho_2 V_2}{V_1 + V_2}$

③ Suyun özağırlığı kaplar nedeniyle hacmi ölçülebilir. Kesintiye uğrar.

$c = \frac{V_2}{V_1 + V_2}$ veya $c = \frac{r_1 r_2}{\text{mitre}}$ ile bulunabilir

YORUM: Kesim I ve II Hakkında

Birinci kesimde suyun yüzey gerilimini 0,070 ve θ açısını 24° ölçerek bulduk. Ordinalde bu okuduğumuz değeri 0 olmalıydı. Ancak bu değerden farklı çıkmamızın yapılan ölçümlerden kaynaklanan hatalar veya suyun saf su olmamasından kaynaklanabileceğini düşünüyoruz. Bu durum ölçümlerimizi etkiler. Bunun sonucunda bulduğumuz sonuçlar gerçek değerlere yakın olabilir.

İkinci kesimde katkı maddesi eklenerek suyun yüzey gerilimini azalttığını bir x boşluğu olduğunu gözlemledik.

Bu durumda I. kesimde

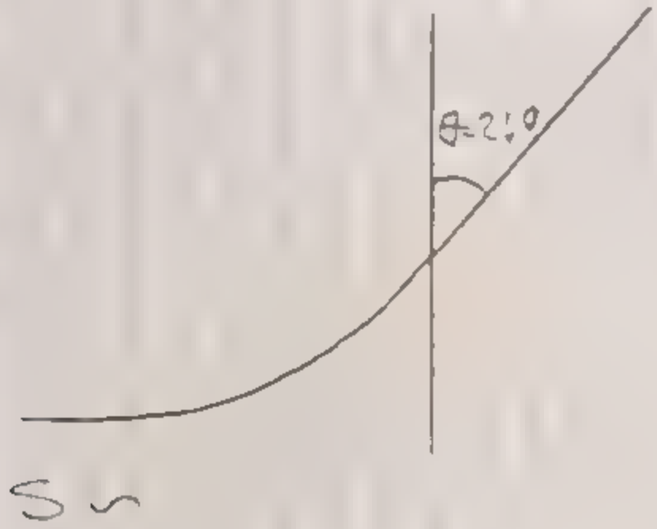


II. kesimde

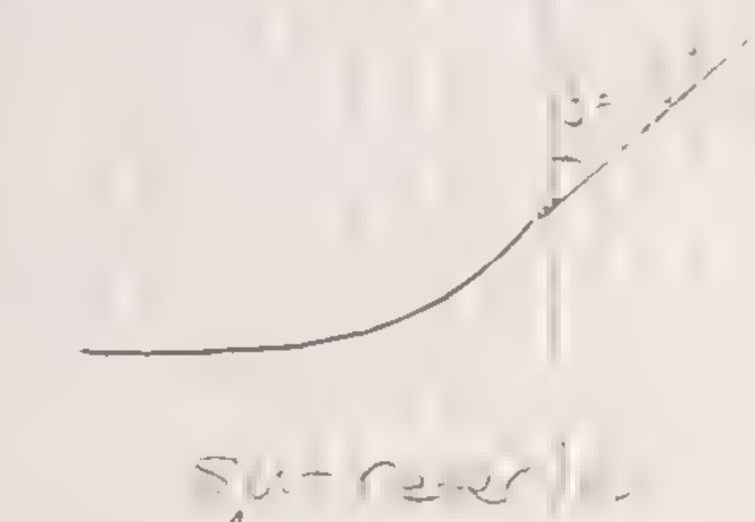

DENEYİN ADI: ESNEK, ESNEK OLMAYAN, TAMAMEN ESNEK OLMAYAN ÇARPIŞMA

DENEYİN AMACI: ① Esnek ve esnek olmayan çarpışmada momentumun değişimini ve enerjinin korunumunu incelemek.
② İki cismin tamamen esnek olmayan çarpışmasında momentum ve enerji bağıntılarının incelenmesi.

MALZEMELER: Hava masası, Air kompresörü, Diskler, Ağırlıklar, Tabaka kağıt, Karbon kağıt, Kağıt, 30 cm'lik cetvel, Açı ölçer.

KURAMSAL BİLGİ:

Esnek çarpışmada momentum ve kinetik enerji korunur.

$$m_1 v_1 + m_2 v_2 = m_1 v_1' + m_2 v_2'$$

$$\frac{1}{2} m_1 v_1^2 + \frac{1}{2} m_2 v_2^2 = \frac{1}{2} m_1 v_1'^2 + \frac{1}{2} m_2 v_2'^2$$

Esnek olmayan çarpışmada momentum korunur kinetik enerji korunmaz çarpışmadan sonra cisimler birbirine yapışık hareket eder.

$$(m_1 + m_2)\vec{V} = m_1 \vec{v_1} + m_2 \vec{v_2} = m_1 \vec{v_1'} + m_2 \vec{v_2'}$$

$$\vec{V} = \frac{m_1 \vec{v_1} + m_2 \vec{v_2}}{(m_1 + m_2)} = \frac{m_1 \vec{v_1'} + m_2 \vec{v_2'}}{(m_1 + m_2)}$$ olur. $m_1$, $m_2$'ye eşit

olur $\vec{v_1} + \vec{v_2} = \vec{V'} + \vec{V_2'}$ olur $v_1^2 + v_2^2 = v_1'^2 + v_2'^2$

$\vec{v} = \vec{v_1'} = \vec{v_2'}$

İki cisim çarpışmada kinetik enerjinin korunduğu çarpışmalara esnek çarpışma denir. Bu çarpışmada $K_1 > K_2$ olur

Kinetik enerjinin kaybolduğu çarpışmalara esnek olmayan çarpışma denir.

$e = \frac{(K_1 - K_2)}{K_1}$ olur.

Eğer iki cisim çarpıştıktan sonra birbirlerine yapışık bir halde hareket edebiliyorsa bunun tamamen esnek olmayan çarpışma" denir. Bu çarpışmada sonra sadece momentum korunur kinetik enerjinin bir kısmı ya da tamamı ısı enerjisine dönüşür.

$\vec{v} = \vec{v_1'} = \vec{v_2'}$ olur.

$m_1 = m_2$ ise;

$\vec{V} = \frac{\vec{v_1} + \vec{v_2}}{2}$ yazılabilir.

$m_1 \vec{v_1} + m_2 \vec{v_2} = (m_1 + m_2)\vec{V} \Rightarrow \vec{V} = \frac{m_1 \vec{v_1} + m_2 \vec{v_2}}{m_1 + m_2}$ yazılabilir.

Buradan anlaşıldığı gibi tamamen esnek olmayan çarpışmada momentum korunur. Ama cismin kinetik enerji kaybı olmaktadır. Çarpışmadan önceki toplam kinetik enerji, çarpışmadan sonraki toplam kinetik enerji.

dan büyüktür. $K_1 > K_2$

Kinetik enerjinin durumu için:

$\frac{1}{2} m_1 V_1^2 + \frac{1}{2} m_2 V_2^2 > \frac{1}{2}(m_1+m_2)V^2$ yazılabilir.

$m_1 = m_2$ için ise:

$\frac{1}{2} m V_1^2 + \frac{1}{2} m V_2^2 > \frac{1}{2} \cdot 2mV^2 \Rightarrow V_1^2 + V_2^2 > 2V^2$ olur.

Bir durum esneklik katsayısı: $e = \frac{K_1 - K_2}{K_1}$ yazılabilir.

[illegible] sonra [illegible] ilk önce kısa nasıl yatay durma getirilir. Ben ilk dişli çarpıştırarak ve daha sonra ölçüm değerlerini bağıntıda yerine koyarak bulacağız. Daha sonra bağıntı [illegible] ve bu değerleri [illegible] bulacağız. Bu bilgiler ışığında bir sonuç bulmaya çalışacağız.

Daha sonra dişlinin yüzeyini çarpıştırıp, [illegible] yüzeyi [illegible] dişli çarpıştırarak [illegible]

Son olarak ise [illegible] çarpıştırıp [illegible] bulacağız, ölçümler esnek ve esnek olmayan [illegible] [illegible]

Çıkarımlar:

1) Çarpışmanın esnek olabilmesi için [illegible] kütle merkezi ve momentum ve kinetik enerjinin korunması gerekir.

2) $V_2 = 0$ $\quad m_1 \vec{V}_1 + m_2 \vec{V}_2 = m_1 \vec{V}_1' + m_2 \vec{V}_2'$

$m_1 = m_2 = m$ olsun.

$m\vec{V}_1 = m\vec{V}_1' + m\vec{V}_2' \Rightarrow \vec{V}_1 = \vec{V}_1' + \vec{V}_2'$

Kinetik enerji için:

$\frac{1}{2} m_1 V_1^2 + \underbrace{\frac{1}{2} m_2 V_2^2}_{0} = \frac{1}{2} m_1 V_1'^2 + \frac{1}{2} m_2 V_2'^2 \Rightarrow V_1^2 = V_1'^2 + V_2'^2$

Bu [illegible] çarpışmadan sonra [illegible] ve aralarındaki açı 90° dir.

3) Dairenin alan bir cisme etki kuvveti ve cismin normaliyle hareketi [illegible] normal esnek olmayan hareketle [illegible]

...ki bir cisim olsa hangisi sürtünmeli yüzeyden hızlı geçer? Aşağıdaki sorunun cevabını ...
...daki noktaların göç yörüngesinden dolayı aksi bir yorum yapılamaz. Bu ...
...hala tayrat kuşları olarak gösterilebilir.

VERİLERİN ÇÖZÜMLENMESİ:

## ① ESNEK ÇARPIŞMA

A) EŞİT KÜTLELERLE: Bu bölümde esnek çarpışmayı, eşit kütleli cisimlerle göre ...
...dik. Bu ... açısal olarak ... rd

$\vec{P}_i = \vec{P}_f \Rightarrow m_1\vec{U}_1 + m_2\vec{U}_2 = m_1\vec{V}_1 + m_2\vec{V}_2$ ise $m_1 = m_2$ olduğundan ...
...dayılarak: $\vec{U}_1 + \vec{U}_2 = \vec{V}_1 + \vec{V}_2$ şeklinde yazabiliriz. Deney sonucu elde ...
...edilen $\vec{U}_1 + \vec{U}_2$ ile $\vec{V}_1 + \vec{V}_2$'yi aldık ve;

$\vec{V} = \vec{U}$ eşitliğini gördük. Buda 4,6 cm - 4,6 cm'dir. Burada hız yönü ...
...değişmeden aynı aldık çarpıştı. Sonuçlar sadeleşir yerde işlem hesaplarsak

$|\vec{V}| = \sqrt{U_1^2 + U_2^2 + 2U_1U_2\cos\theta} = \sqrt{2,8^2 + 3,1^2 - 2\cdot2,8\cdot3,1\cdot0,5} = 2,5$ cm.

$|\vec{U}| = \sqrt{3,0^2 + 3,2^2 - 2\cdot3,0\cdot3,2\cdot\cos\theta} = \sqrt{3^2 + 3,2^2 - 2\cdot3\cdot3,2\cdot0,29} = 2,2$ olur.

} 0,3'lük bir hata.

Bu çarpışmada Kinetik enerjinin korunduğunu gördük

$\frac{1}{2}m_1U_1^2 + \frac{1}{2}m_2U_2^2 = \frac{1}{2}m_1U_1^2 + \frac{1}{2}m_2U_2^2$ $m_1 = m_2$ olduğundan

$U_1^2 + U_2^2 \quad U_1^2 + U_2^2$

$2,8^2 + 3,1^2 \quad 3,0^2 + 3,2^2$

$17,45 \neq 19,24$

$17,45 \neq 19,24$ (veya $-6,99$da olabilir)

Yukarıda görüldüğü gibi kinetik enerji eşitliği sağlanamamıştır. Bunun nedeni yörünge düzlemine ...

Bu bölümde momentum ve kinetik enerjinin korunduğunu küçük eşit kütlelerde kullanılan ...
...ortasından bir ve öte bulunduğunu gözlemlemek için hazırlanmış olduğunu görürüz!

Bu ... kütleleri;

Bu ... momentum ve Kinetik ... bir ... sağlayıp sağlamadığını bir ...
... paralel (hata payıyla birlikte) kütlesi

$U_1 = |\vec{U}| = \sqrt{2,8^2 + 2,8^2 - 2\cdot2,2\cdot2,8\cdot\cos45} = \sqrt{2,2^2 + 2,8^2 - 2\cdot2,2\cdot2,8\cdot0,71} = 2,0$ cm

$\vec{U}_2 = |\vec{U}| = \sqrt{2,2^2 + 2,8^2 - 2\cdot2,2\cdot2,8\cdot0,65} = \sqrt{2,1^2 + 2,9^2 - 2\cdot2,2\cdot2,9\cdot0,42} = 2,8$ cm

} Sapma hatası

Oldukça büyük hata var!

... bir ... üzerinde üç büyük kütleye ... sistemi ... U...
... olduğu ... $M_1 \cdot x = M_2(k + x)$ ... den x'i bulabiliriz.

... momentum ...:

$U_1^2 + U_2^2 = U_1^2 + U_2^2$ Denersiz.

$2,2^2 + 2,8^2 = 2,2^2 + 2,8^2$ ?

$12,68 = 13,32$ ($\pm$ 0,1) ... hata) Kinetik enerji korunur

farklı kütlelerle olmuş!

$\vec{V}_{km}$ kütle merkezinin hızı bileşke hız vektörünün yönü ve değeriyle aynı olduğunu görmüştük. Değer bilinde

$$V_{km} = \frac{m_1 V_1 + m_2 V_2}{m_1 + m_2}$$ 'den hesaplayalım. $m_1$'e bölelim.

$$\vec{V}_{km} = \frac{m_1 \cdot \vec{V}}{m_1 + m_2} = \frac{50 \cdot}{1139}$$

$V_{km}$'nin yukarıdaki işlemle bulduğumuz değeri grafikteki değerden 1 cm'lik farklı oldu.

II) ESNEK OLMAYAN ÇARPIŞMA:

A) Eşit kütlelerle: bu bölümde momentumun korunduğunu ama enerjinin korunmadığını (çarpışma öncesi ve sonrası hız vektörlerinin bileşkeleri farklıydı)

$E_{ki} \neq E_{kf} \Rightarrow V_1^2 + V_2^2 \neq \vec{V}^2 + \vec{U}^2$ olmalı

$1,1^2 + 1,3^2 = 0,8^2 + 1,3^2$

$2,9 \text{ cm/s}^2 \neq 2,33 \text{ cm/s}^2$

Buradan esneklik katsayısı $e = \frac{2,9 - 2,33}{2,9} = 0,197 \leq 0,2$

Momentum ise; $\vec{V} = \sqrt{1,1^2 + 1,3^2 - 2 \cdot 1,1 \cdot 1,3 \cos 22} = \sqrt{1,1^2 + 1,3^2 - 2 \cdot 1,1 \cdot 1,3 \cdot 0,92} = 0,5 \text{ cm}$ $\vec{U} = \sqrt{0,8^2 + 1,3^2 - 2 \cdot 0,8 \cdot 1,3 \cos 47} = \sqrt{0,8^2 + 1,3^2 - 2 \cdot 0,8 \cdot 1,3 \cdot 0,68} = 0,9 \text{ cm}$ $\Rightarrow$ 0,4 cm'lik bir hata

Görüldüğü gibi bu çarpışma momentumun korunduğu esnek çarpışmadır. Bunun bu tip çarpışmada olmasını beklemiş olmamız $V_2$'nin geçtiğinin noktalar bir düz çizgi üzerinde olmasına bağlı olabilir.

B) Eşit olmayan kütlelerle;

Bu bölümde momentumun korunduğunu görmüştük. $\vec{P}_i = \vec{P}_f$

$\vec{V} = \sqrt{1,4^2 + 1,5^2 - 2 \cdot 1,4 \cdot 1,5 \cos 37} = \sqrt{1,4^2 + 1,5^2 - 2 \cdot 1,4 \cdot 1,5 \cdot 0,79} = 1 \text{ cm}$

$\vec{U} = \sqrt{1,7^2 + 1,6^2 - 2 \cdot 1,7 \cdot 1,6 \cos 80} = \sqrt{1,7^2 + 1,6^2 - 2 \cdot 1,7 \cdot 1,6 \cdot 0,17} = 2 \text{ cm}$ } 1 cm hata

$\vec{V}_1 + \frac{m_2}{m_1} \vec{V}_2 = \vec{U}_1 + \frac{m_2}{m_1} \vec{U}_2$ eşitliği vektörel olarak tartış.

Bu çarpışma da $E_k$'nın korunmadığını görmüştük bu çarpışmada esneklik katsayısı

$e = \frac{1159,5 - 962,5}{1159,5} = 0,1699$ ? 0,17 oldu. Ama 2. terim $E_k$ sı daha kolay olması yüzünden daha büyük etkin bunun hesabı bir düz çizgiye bağımlı olmadığı içindir.

III) TAMAMEN ESNEK OLMAYAN ÇARPIŞMA

① Eşit kütlelerle: Bu çarpışmada momentumun korunduğunu kinetik enerjinin korunmadığını gördük. Hız vektörlerinin toplamı birbirine eşit olmadığı için momentumun korunumunu kağıt üzerinde göstermek için şöyle bir yol izledik.

$m_1\vec{V}_1 + m_2\vec{V}_2 = m_1\vec{U}_1 + m_2\vec{U}_1$ Hepsini m₁ ile bölelim.

$\vec{V}_1 + \vec{V}_2 = 2\vec{U}_1$ olduğunu görüyoruz. Bu durumda $\vec{U}$'yu ilk katmağada $V_1 + V_2$'nin yarısını alıp çizerek momentum eşitliğini gösterebiliriz.

Bu bölümdede kütle merkezi doğrusal bir yörünge izledi çarpışmada kinetik enerjide korunmadı.

$V_1^2 + V_2^2 > 2U^2$

$1,3^2 + 1,3^2 > 2 \times 1,2^2 = 3,4 > 2,4 \Rightarrow e = \frac{3,4 - 2,4}{3,4} = ?$

Momentumun vektörel olarak hesaplayalım

$\vec{V} = \sqrt{1,3^2 + 1,3^2 - 2 \cdot 1,3 \cdot 1,3 \cdot \cos 55} = 1,7\,cm$
$\vec{U} = \sqrt{1,2^2 + 1,2^2 - 2 \cdot 1,2 \cdot 1,2 \cdot \cos 90} = 1,7\,cm$ } $\vec{V}_1 = V_2$ momentum korundu $\cos 55 = 0,57$ $\cos 90 = 0$

② Eşit kütlelerle: Bu bölümde momentumun korunduğunu, kinetik enerjinin korunmadığını gördük.

Kütle merkezinin bir doğru boyunca hareketi buradada geçerliydi.

Burada momentum vektörlerini bulmak için yine yukarıdakine benzer bir yol izleriz.

$m_1\vec{V}_1 + m_2\vec{V}_2 = (m_1 + m_2)\vec{U}$

$\frac{m_1}{m}\vec{U}_1 + \frac{m_2}{m}\vec{U}_2 = \frac{m_1}{m}\vec{U} + \frac{m_2}{m}\vec{U} \Rightarrow \vec{U}_1 + \frac{m_2}{m_1}\vec{U}_2 = \vec{U} + \frac{m_2}{m_1}\vec{U} \Rightarrow \vec{U}_1 + \frac{m_2}{m_1}\vec{U}_2 = \vec{U}(1 + \frac{m_2}{m_1})$

olup $\vec{U}$ hızını $\frac{m_2}{m}$ ile çarpar $\vec{V}_1$ ile toplarsak $\vec{V}_1$ hızını $1 + \frac{m_2}{m_1}$ ile çarparsak $\vec{V}$ bulunur.

Cebirsel olarak $\vec{U} = \sqrt{1,6^2 + 1,6^2 - 2\cos 55 \cdot 1,6 \cdot 1,6} = 1,5\,cm$
$\vec{U} = \sqrt{1,2^2 + 1,2^2 - 2 \cdot 1,2 \cdot 1,2 \cos 90} = 1,6\,cm$ } $0,1\,cm^2$'lik hata

$\frac{1}{2}m_1V_1^2 + \frac{1}{2}m_2V_2^2 = \frac{1}{2}U^2(m_1 + m_2)$ $V_1^2 + \frac{m_2}{m_1}V_2^2 = \vec{U}^2\frac{m_1 + m_2}{m_1}$

Kayıp bulunan enerji $= 4,6 \approx 4,7$ $0,1$ hata

SONUÇ: Sonuç olarak tüm çarpışmalarda eğer bir dış kuvvet etki etmiyorsa momentumun korunduğunu gördük. Buna rağmen kinetik enerjinin yalnızca esnek çarpışmalarda korunduğunu şöyle ifade edebiliriz. Esnek olmayan çarpışmalarda çarpışma sonrası kinetik enerji kaybı oluşur. Bu ya ısıya ya da benzerlerine dönüşmalarda harcanır. Enerji dönüşümünü açıklamak için momentum eşitliklerini $m_1$ ya da $m_2$ bölme yoluna gittik. Sonuçta tamamen esnek olmayan çarpışmalarda meydana gelen kinetik enerji değişimi bunun bağlı olarak e değerine değişiyordu.

$e_{TEO} > e_{EO}$

Bütün çarpışmalarda eğer dış kuvvet etki etmiyorsa çarpışmadan önce ve sonra düz bir yol izliyorlar. Arada durum arasında bir kararlık meydana geliyor.

Yine bu çarpışmalarda kütle merkezinin doğrusal bir yol izlediğini ve sistemin hareketini bu doğru üzerinde ilerlediğini gördük.

YORUM: Kağıt üzerinde (eğen tesirde) bazı noktaların eğri çizdiği yada oraların daki Meyafesin değiştiği görülüyor. Bu yalnız başlangıcta yalın kılıçlarda kuvvetin nedeni dişlerin arkalıktan sonraları bir süreyi alıp elle sürülen dişli başlıyor. Oysa orta basınçlarda önce dişleri birleştiriyoruz.

Yine momentum yetişmeyen yetişmeyen kaynaklarda bazı faktörler ölçüm hatalar oluşurken $V_2$ ve $U_2$ hızlarının eşit olmaması kuvvetin nedeni sürtünmeden sonra sistemin bir kinetik göstermesi bir kuvvet dişlerin arka olsa dönmesinden meydana gelebilir. Ama bunu ölçü indirgemek imkansızdır. Çünkü dişler bir hareket bağlıdır. Hareket ve en dengeye gelebilmek için dişlerinden dişleri de eğilerek ve dişli olsa dönmesine neden olurlar.

Bir başka hata kaynağı dişlerin tam yandan değmeyip biri nin diğerine biraz üstten uygulanabilmesi olmaktadır. Bu nunla beraber hataların küçük olması nedeniyle kuvvetleri gözlemleyebildik.

Momentumlardaki bu küçük farklarda bize sayılarına göre %2 lik bir hata kabul edilebilir bir düzeydir.

NOT: Soruların cevapları kuramsal bilginin sonunda verildi.

20.12.1992